Groupe Scolaire ESSALAM
d'enseignement privé
OUJDA

مجـموعة الســـــلام الدراسية
للتعـــليم الخصـــوصي
وجـــدة

تحدي الرياضيات – الموسم الدراسي 2023-2024 – "الأسبوع رقم 8"

تمارين التدريب – المستوى: الثاني ابتدائي

1er Défi التحدي الأول

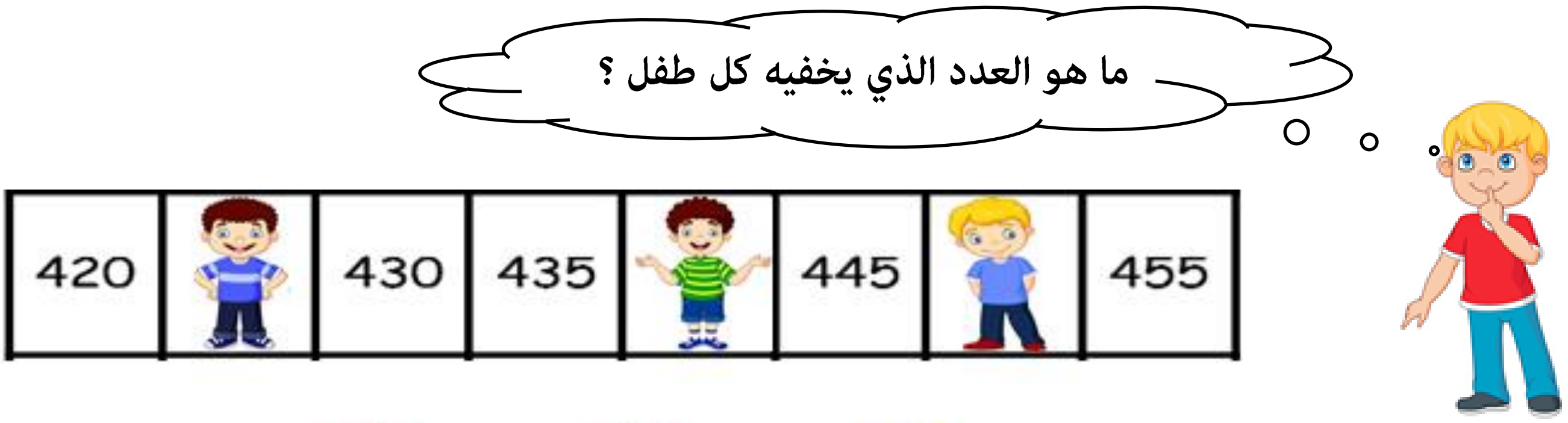
ما هو العدد الذي يخفيه كل طفل ؟
420
430
435
445
455



2ème Défi التحدي الثاني

يقفز الضفدعة و الأرنب و الكنغر على شريط عددي من 1 إلى 30 حسب القواعد التالية :

30	29	28	27	26	25	24	23	22	21	20	19	18	17	16	15	14	13	12	11	10	9	8	7	6	5	4	3	2	1	الانطلاق

- تنتقل الضفدعة بـ 3 خانات.
- ينتقل الأرنب بـ 4 خانات.
- ينتقل الكنغر بـ 6 خانات.



☚ ما هما الخانتان اللتان يمر منهما كل من الضفدعة والأرنب والكنغر؟