Groupe Scolaire ESSALAM d'enseignement privé OUJDA	مجـموعة الســـــلام الدراسية للتعـــليم الخصـــوصي وجـــدة	

تحدي الرياضيات – الموسم الدراسي 2023-2024 – "الأسبوع رقم 7"
تمارين التدريب – المستوى: الخامس ابتدائي

1er Défi	التحدي الأول

قامت ولاء بإنجاز العملية التالية :

● 3 - ● 2 = 25

أوجد مجموع العددين اللذين قامت بإخفائهما .

المجموع هو :

2ème Défi	التحدي الثاني

Relie trois points pour obtenir les triangles demandés :

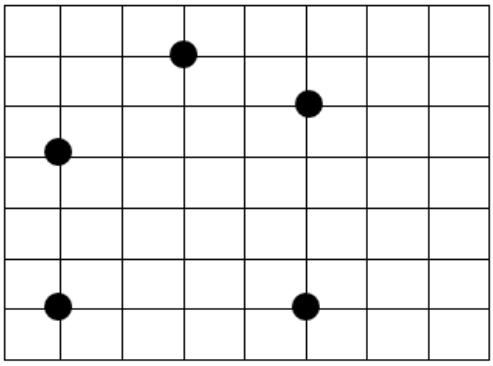

Un triangle isocèle

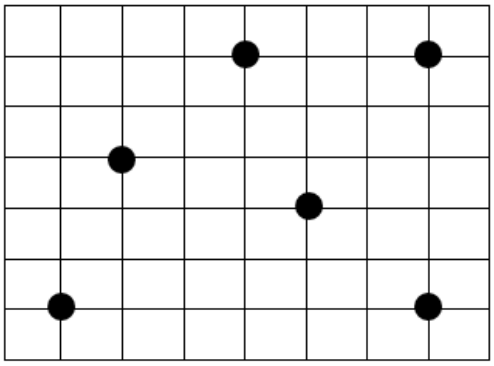

Un triangle équilatéral

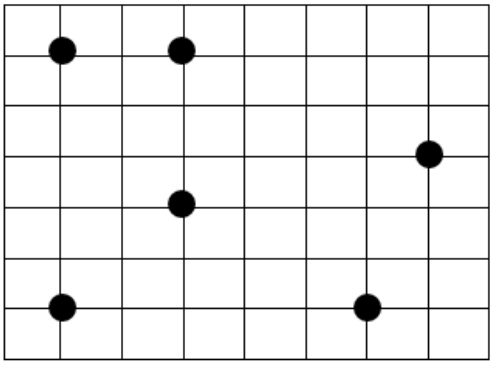

Un triangle rectangle