Groupe Scolaire ESSALAM
d'enseignement privé
OUJDA

مجـموعة الســـــلام الدراسية
للتعـــليم الخصـــوصي
وجـــدة

تحدي الرياضيات – الموسم الدراسي 2023-2024 – "الأسبوع رقم 7"
تمارين التدريب – المستوى: الثالث ابتدائي

1er Défi — التحدي الأول

Le poussin veut rejoindre sa mère mais :

La somme des nombres sur lesquels il passe doit être égale à 27

Il ne peut pas passer deux fois sur le même nombre.

Trouve quatre chemins possibles.

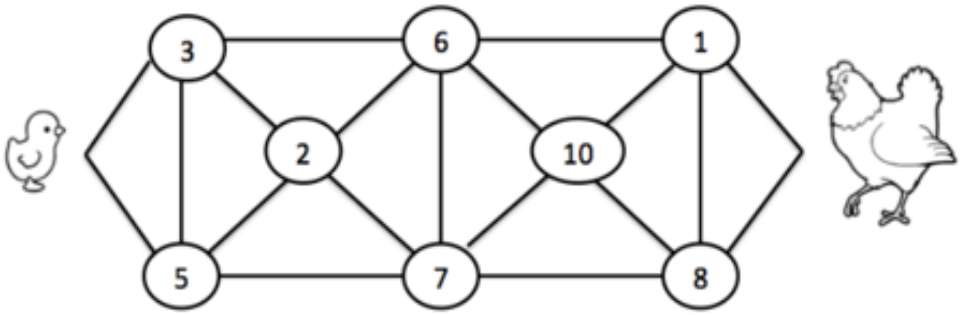

2ème Défi — التحدي الثاني

المكعب الكبير أسفله يتكون من مجموعتين (مجموعة مكعبات صغيرة رمادية كما تظهر في هذا المكعب ومجموعة مكعبات صغيرة بيضاء). كل مجموعة تتكون من 4 مكعبات صغيرة .

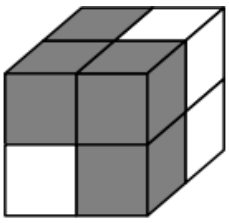

حدد مجموعة المكعبات البيضاء من بين المجموعات المقترحة التالية :

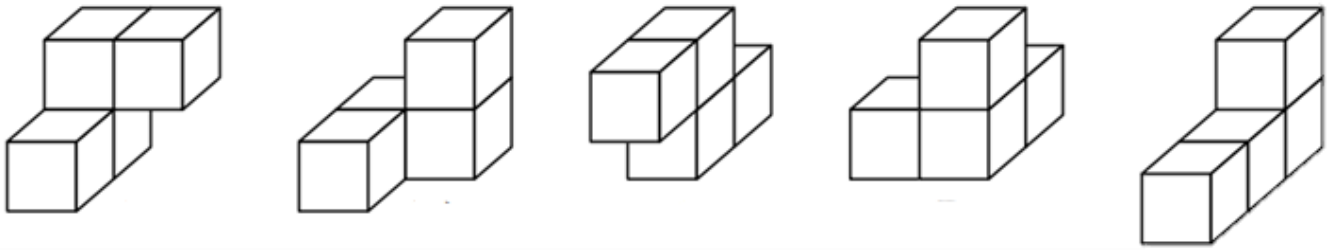

(أ) (ب) (ت) (ج) (د)