Groupe Scolaire ESSALAM
d'enseignement privé
OUJDA

مجـموعة الســـــلام الدراسية
للتعـــليم الخصـــوصي
وجـــدة

تحدي الرياضيات – الموسم الدراسي 2023-2024 – "الأسبوع رقم 5"
تمارين التدريب – المستوى: السادس ابتدائي

1er Défi	التحدي الأول

Alae et Yassine observent un assemblage de cubes. Que voient-ils ?



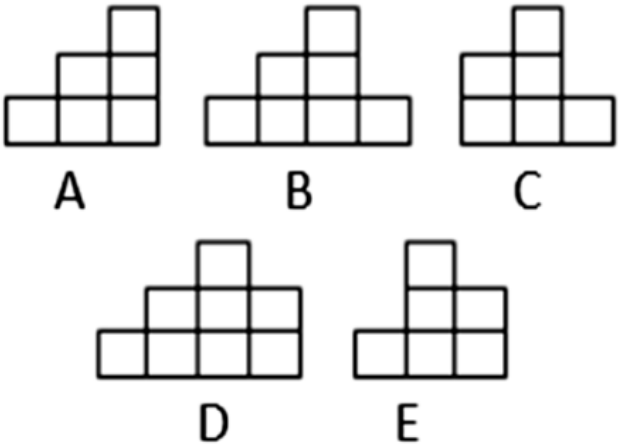

2ème Défi	التحدي الثاني

Amine écrit les sept nombres 3 , 4 , 5 , 6 , 7 , 8 et 9 dans les cercles du dessin ci-contre de manière à avoir des sommes égales sur chaque ligne de trois nombres.

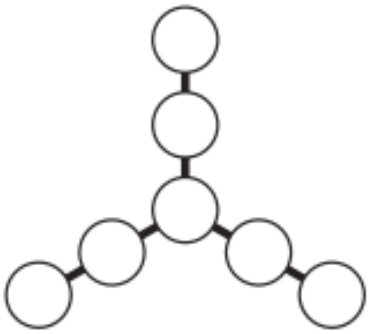

Quelle est la plus grande valeur possible pour cette somme ?

A) 24 B) 22 C) 20 D) 18 E) 16