Groupe Scolaire ESSALAM
d'enseignement privé
OUJDA

مجموعة السلام الدراسية
للتعليم الخصوصي
وجدة

DEFI MATHEMATIQUES ANNEE 2023-2024 « SEMAINE N° 2 »

Exercices d'Entrainement – Niveau : 1AC

1er Défi — التحدي الأول

On utilise des allumettes pour écrire les nombres en formant les chiffres de cette façon :

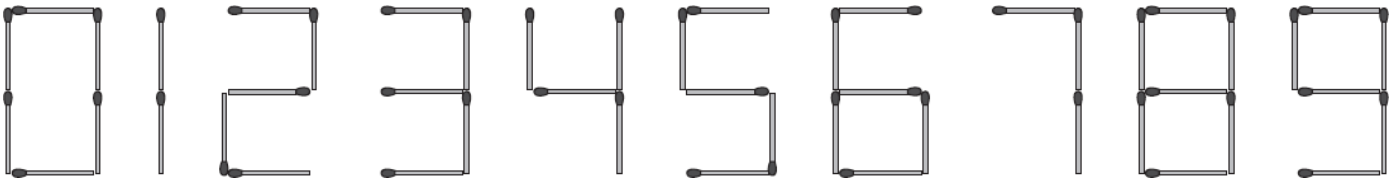

Il faut 7 allumettes pour écrire le nombre 15, et autant pour écrire le nombre 8.

Quel est le plus grand nombre qu'on peut ainsi écrire avec 7 allumettes ?

2ème Défi — التحدي الثاني

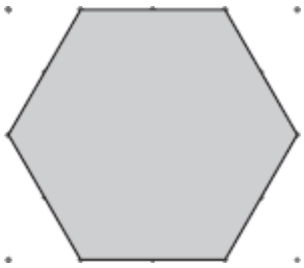
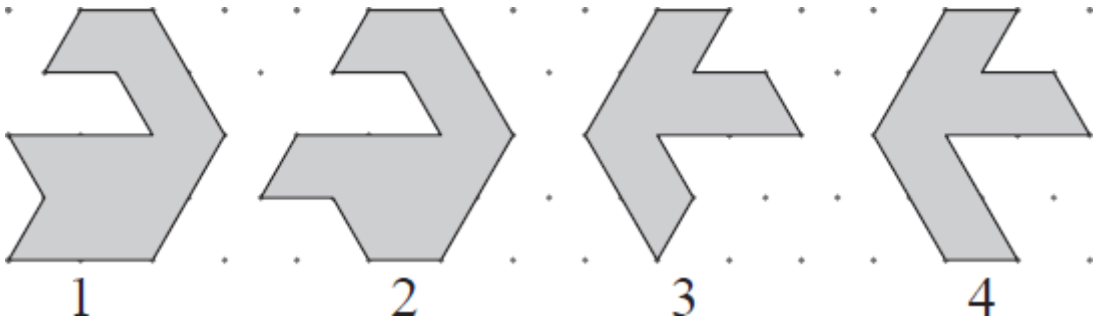
Pour former l'hexagone ci-contre, on peut utiliser deux de ces quatre pièces de puzzle. Lesquelles ?