Groupe Scolaire ESSALAM
d'enseignement privé
OUJDA

مجموعة السلام الدراسية
للتعليم الخصوصي
وجدة

DEFI MATHEMATIQUES ANNEE 2023-2024 « SEMAINE N° 16 »

Exercices d'Entrainement – Niveau : 2AC

1er Défi — التحدي الأول

Naoual a trois sortes de cartes : pomme, cerise et raisin. Dans une série de 5 cartes, elle veut que les cartes représentant le même fruit soient les unes à côté des autres. Pour cela, elle doit choisir deux cartes et échanger leurs places.

Avec quelle série cela n'est-il pas possible

A)

B) 

C)

D) 

E)

2ème Défi — التحدي الثاني

Des objets de trois types sont placés sur les plateaux de trois balances.

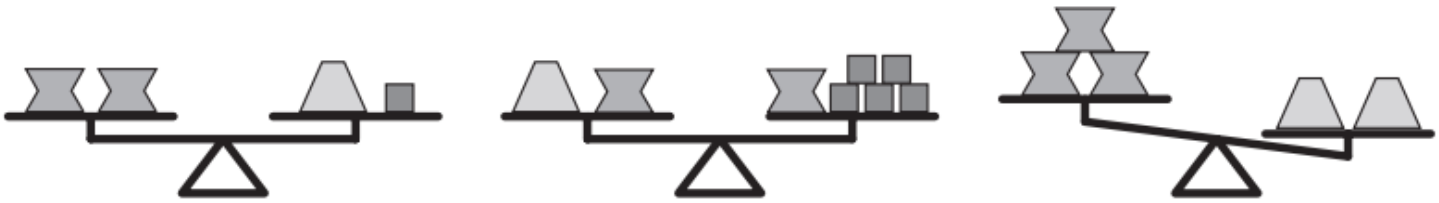

Tous les objets d'un même type ont la même masse.

Que faut-il ajouter sur un plateau de la troisième balance pour qu'elle soit en équilibre ?

A)

B)

C)

D)

E)