Groupe Scolaire ESSALAM d'enseignement privé OUJDA	مجـموعة الســـــلام الدراسية للتعـــليم الخصـــوصي وجـــدة	

تحدي الرياضيات – الموسم الدراسي 2023-2024 – "الأسبوع رقم 11"

تمارين التدريب – المستوى: الخامس ابتدائي

1er Défi	التحدي الأول

Kamal plie une feuille transparente le long d'une ligne pointillée horizontale, le haut venant sur le bas (voir figure). Que voit-il alors ?

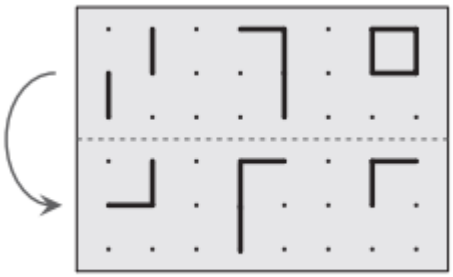

A) 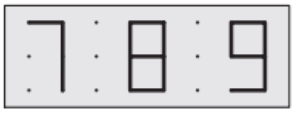 B) 

C)  D) E) 

2ème Défi	التحدي الثاني

Combien y a-t-il de nombres pairs entre 1 et 23 ?