Groupe Scolaire ESSALAM
d'enseignement privé
OUJDA

مجـموعة الســـــلام الدراسية
للتعـــليم الخصـــوصي
وجـــدة

الجولة الثالثة من تحدي الرياضيات – الموسم الدراسي 2024-2023

مجموع النقاط:

الاسم العائلي والشخصي:..... - المستوى: الرابع ابتدائي

ملاحظة: تحصلون على 4 نقاط في كل مرة تكون إجابتكم على التحدي صحيحة، وعلى 0 نقطة في حالة الإجابة الخاطئة

التحدي الأول

Combien a-t-il fallu de briques pour construire ce mur ?

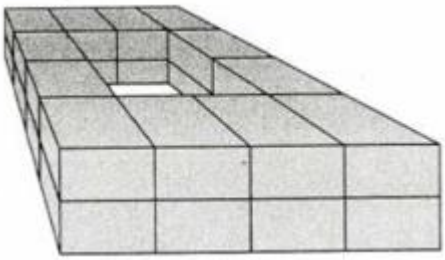

التحدي الثاني

Le triple de 234 est égal au double de 351.**Vrai** ou **Faux** ?

Justifiez votre réponse.

التحدي الثالث

Complète les cases vides.

Observe et trouve la règle .

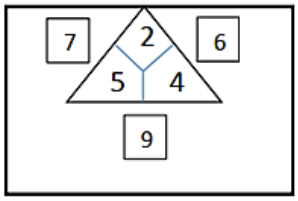

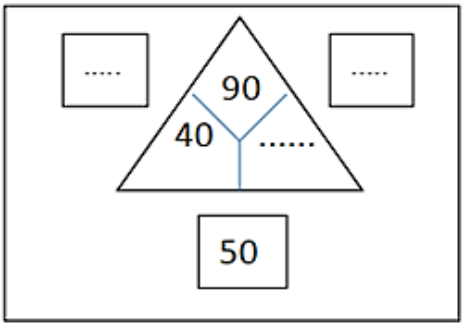

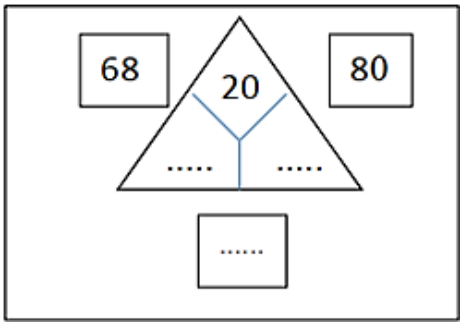

التحدي الرابع

كم عدد المستطيلات التي يتضمنها الشكل التالي؟

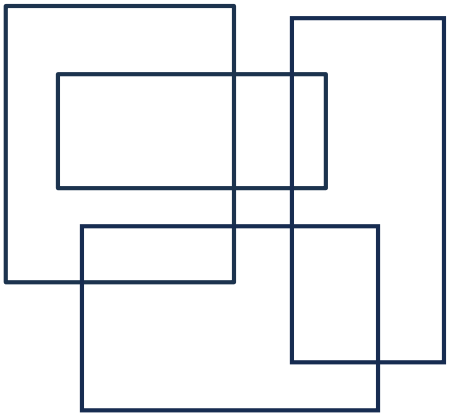

مساعدة:

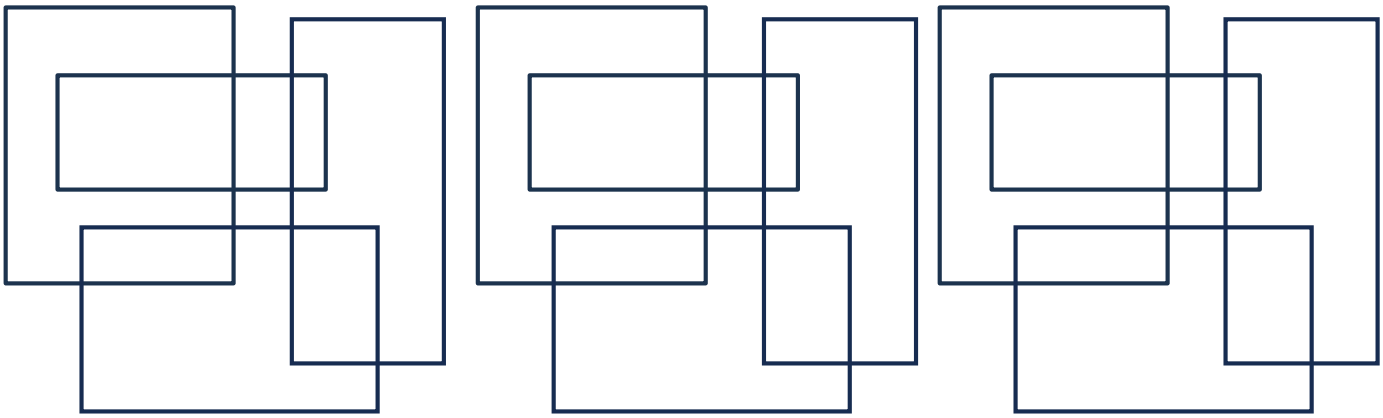

التحدي الخامس

Leila a 5 ans. Pour trouver l'âge de son grand père, tu dois : partir de l'âge de Leila / Le multiplier par 7/ Ajouter 5 au résultat obtenu / multiplier ensuite par 2 / enlever les 12 années au résultat.

Quel âge a le grand-père de Leila ?