Groupe Scolaire ESSALAM
d'enseignement privé
OUJDA

مجـموعة الســـــلام الدراسية
للتعـــليم الخصـــوصي
وجـــدة

الجولة الثالثة من تحدي الرياضيات – الموسم الدراسي 2023-2024

مجموع النقاط:

الاسم العائلي والشخصي:..... - المستوى: الأول ابتدائي

ملاحظة: تحصلون على 4 نقاط في كل مرة تكون إجابتكم على التحدي صحيحة، وعلى 0 نقطة في حالة الإجابة الخاطئة

التحدي الأول

أَوْجِدِ العَدَدَ الَّذي تُمَثِّلُهُ كُلّ مِنَ الدَّعْسُوقَةِ وَالنَّحْلَةِ:

+ = 4

= 2

+ = 5

=

+ = 7

=

التحدي الثاني

أَكَمِّلُ السِّلْسِلَةَ الْعَدَدِيَّةَ التَّالِيَةَ :

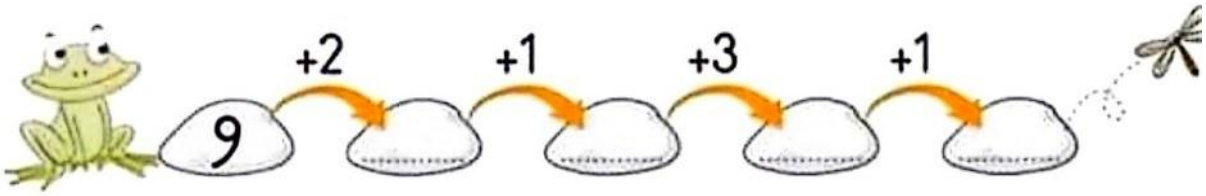

التحدي الثالث

مَا هِيَ الْأَعْدَاد الَّتِي تُوجَدُ دَاخِلَ الدّائِرَةِ وَخَارِجَ المُسْتَطِيلِ:

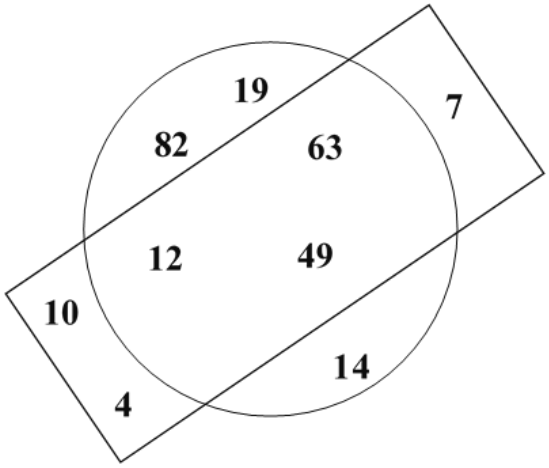

التحدي الرابع

مَا هُوَ الْمَسَار الَّذي سَيَسْلِكُهُ الْقِرْدُ لِلْوُصُولِ إِلَى غذَائِه:



التحدي الخامس
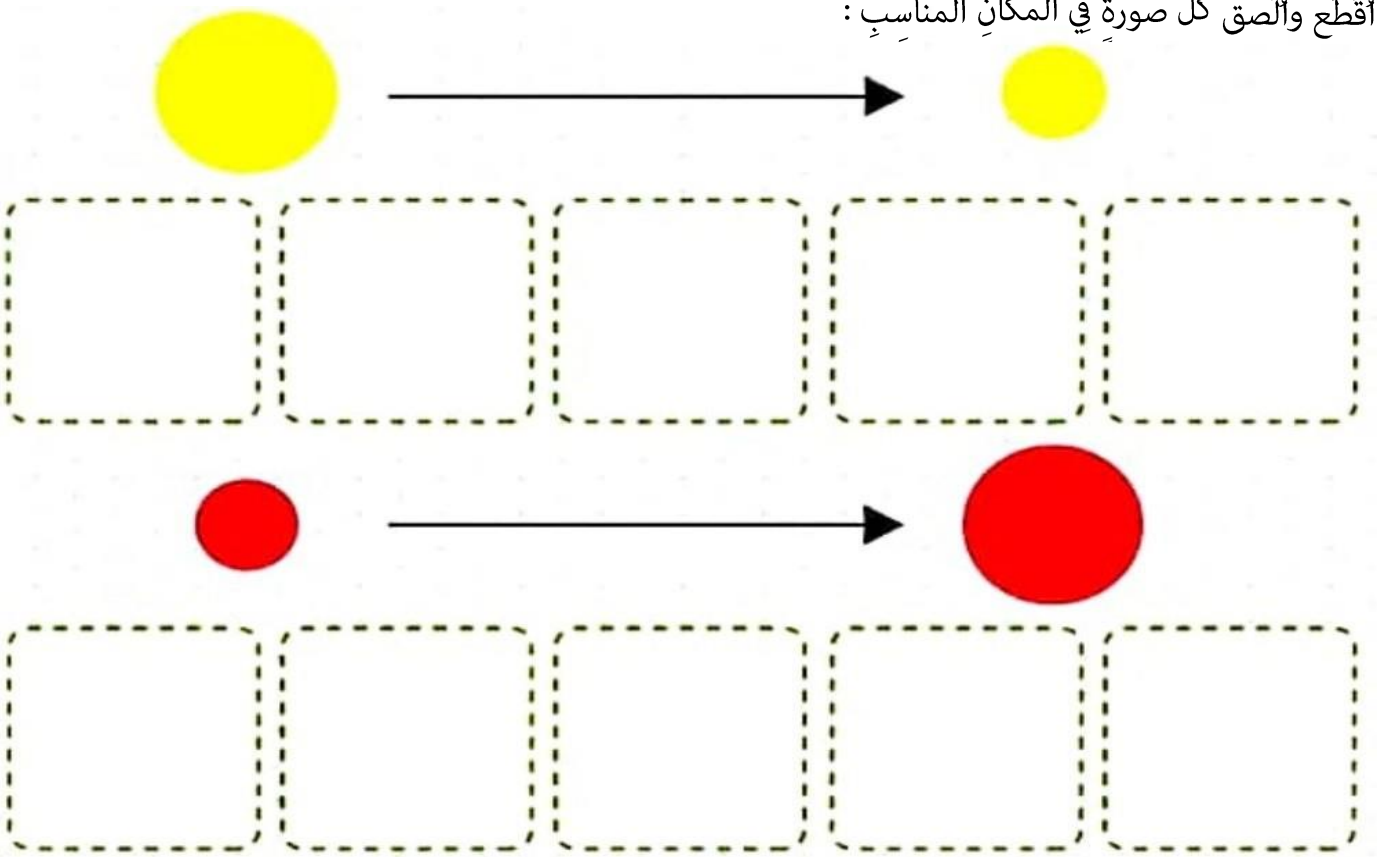
أَقَطِّعُ وَأَلْصِقُ كُلّ صُورَةٍ فِي الْمَكَانِ الْمُنَاسِبِ :