Groupe Scolaire ESSALAM
d'enseignement privé
OUJDA

مجـموعة الســـــلام الدراسية
للتعـــليم الخصـــوصي
وجـــدة

الجولة الثانية من تحدي الرياضيات – الموسم الدراسي 2024-2023

مجموع النقاط:

الاسم العائلي والشخصي:..... - المستوى: السادس ابتدائي

ملاحظة: تحصلون على **4 نقاط** في كل مرة تكون إجابتكم على التحدي صحيحة، وعلى **0 نقطة** في حالة الإجابة الخاطئة

التحدي الأول

On a réparti 5,4 kg de confiture de cerise dans 19 pots de 3 tailles différentes. Sur chaque étagère, il y a exactement le même poids de confiture.

Quelle quantité de confiture chaque pot contient-il ?

= ..... kg

= ..... kg

= ..... kg

التحدي الثاني

قطعتان أرضيتان إحداهما مستطيلة الشكل والأخرى مربعة لهما نفس المحيط.





أحسب قياس بعدي القطعة المستطيلة علما ان طولها يزيد عن عرضها ب 100m .

التحدي الثالث

Un sac opaque contient 100 boules de différentes couleurs : bleues, rouges, blanches, vertes et noires.

Combien faut-il en tirer au minimum pour être sûr d'avoir 2 boules de la même couleur ?

التحدي الرابع

Quel est le score de la dernière cible ?

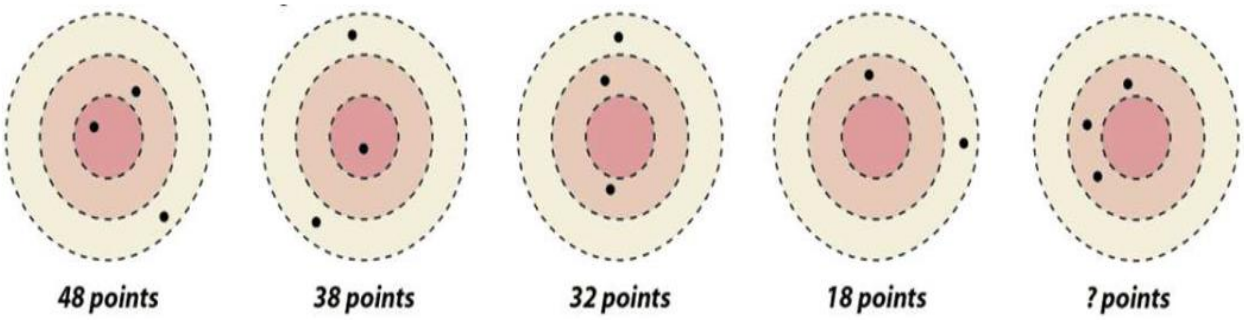

التحدي الخامس

إذا ملكت عائشة ضعف ما لديها و 400 درهم إضافية ستتمكن من شراء دراجة ثمنها 2800 درهم .

ما هو المبلغ الذي تملكه ؟