Groupe Scolaire ESSALAM
d'enseignement privé
OUJDA

مجـموعة الســـــلام الدراسية
للتعـــليم الخصـــوصي
وجـــدة

الجولة الثانية من تحدي الرياضيات – الموسم الدراسي 2024-2023

مجموع النقاط:

الاسم العائلي والشخصي:..... - المستوى: الخامس ابتدائي

ملاحظة: تحصلون على **4 نقاط** في كل مرة تكون إجابتكم على التحدي صحيحة، وعلى **0 نقطة** في حالة الإجابة الخاطئة

التحدي الأول

في هذا الهرم كل عدد هو مجموع العددين في المربعين الموجودين مباشرة في الأسفل .

املأ كل المربعات الفارغة .

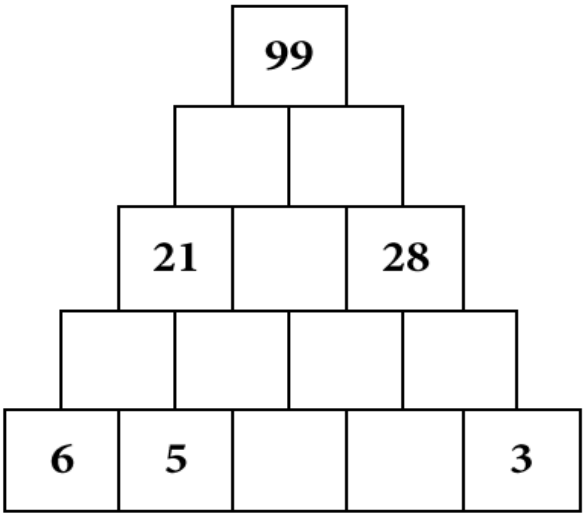

التحدي الثاني

ابحث عن قيمة الأشكال الهندسية علما أنها محصورة بين 1 و 5 و الهلال والنجمة أعداد فردية .

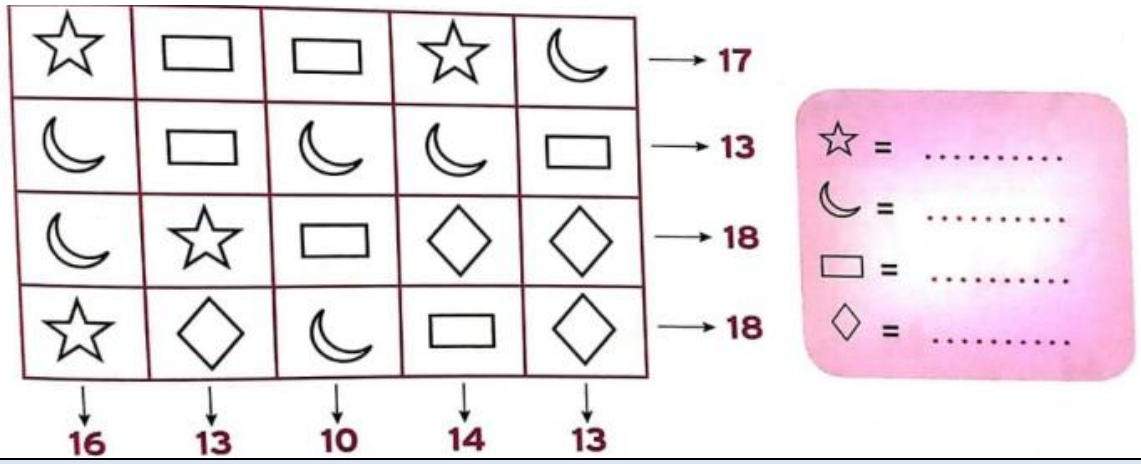

التحدي الثالث

Un tapis carré bordé de points : le long de chaque côté, il y a le même nombre de points, alignés sur 2 rangées.
Le dessin montre le tapis replié sur lui-même.
Combien y-a-t-il de points en tout sur le tapis ?

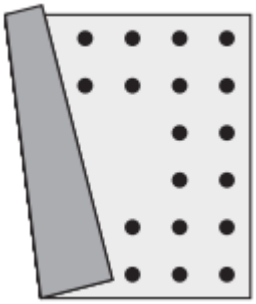

التحدي الرابع

J'ai envoyé 5 cartes postales à des amis. Il n'y a pas de canard sur celle de Adam. On voit de l'eau sur celle de Sara. Il y a exactement 2 animaux sur celle de Kamal. Il y a un chien sur de celle de Ahmed et des kangourous sur celle d'Hiba. Quelle carte ai-je envoyée à Adam ?

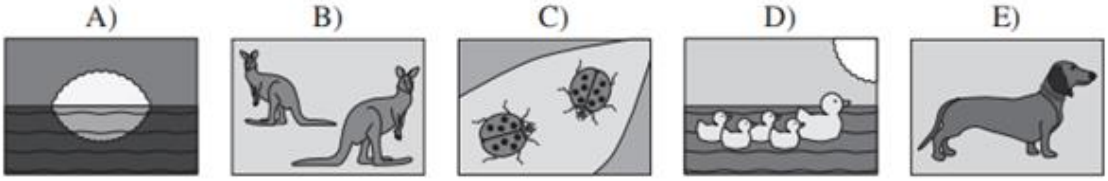

التحدي الخامس

Compléter cette égalité par des virgules pour qu'elle devienne vraie.

$$755 + 2125 + 21 = 309$$