Groupe Scolaire ESSALAM
d'enseignement privé
OUJDA

مجـموعة الســـــلام الدراسية
للتعـــليم الخصـــوصي
وجـــدة

الجولة الثانية من تحدي الرياضيات – الموسم الدراسي 2024-2023

مجموع النقاط:

الاسم العائلي والشخصي:..... - المستوى: الثالث ابتدائي

ملاحظة: تحصلون على **4 نقاط** في كل مرة تكون إجابتكم على التحدي صحيحة، وعلى **0 نقطة** في حالة الإجابة الخاطئة

التحدي الأول

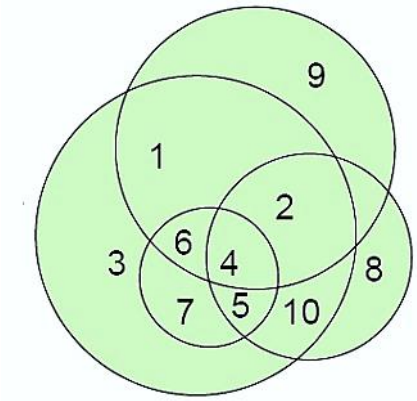

ما هـو العـدد الـذي يوجـد داخـل كل الـدوائـر؟

التحدي الثاني

Combien de carrés y a-t-il en tous ?

التحدي الثالث

J'ai choisi une carte sur laquelle il y a deux triangles et un cercle en bas à gauche. Il n'y a pas de rectangle sur la carte que j'ai choisi.

Quelle carte ai-je choisi?

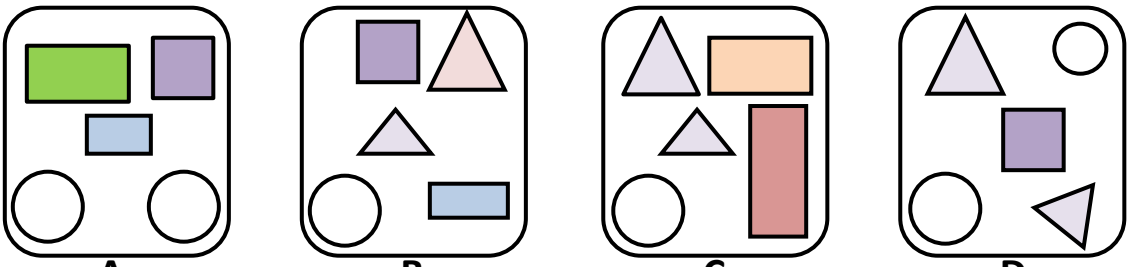

A B C D

التحدي الرابع

يتم التنقل في هذه بإضافة العدد 6 المشار إليه. ألون الخانات التي سيمر منها القرد للخروج من هذه المتاهة والوصول إلى الموزة.

التحدي الخامس

Un Clown a 3 chemises : une rouge, une bleue et une verte.

Il a 3 pantalons : un jaune, un violet et un marron.



Combien a-t-il de manières différentes de s'habiller ?