Groupe Scolaire ESSALAM
d'enseignement privé
OUJDA

مجـموعة الســـــلام الدراسية
للتعـــليم الخصـــوصي
وجـــدة

الجولة الأولى من تحدي الرياضيات – الموسم الدراسي 2024-2023

مجموع النقاط:

الاسم العائلي والشخصي:..... - المستوى: السادس ابتدائي

ملاحظة: تحصلون على 4 نقاط في كل مرة تكون إجابتكم على التحدي صحيحة، وعلى 0 نقطة في حالة الإجابة الخاطئة

التحدي الأول

Quel est l'intrus parmi ces formes géométriques ?

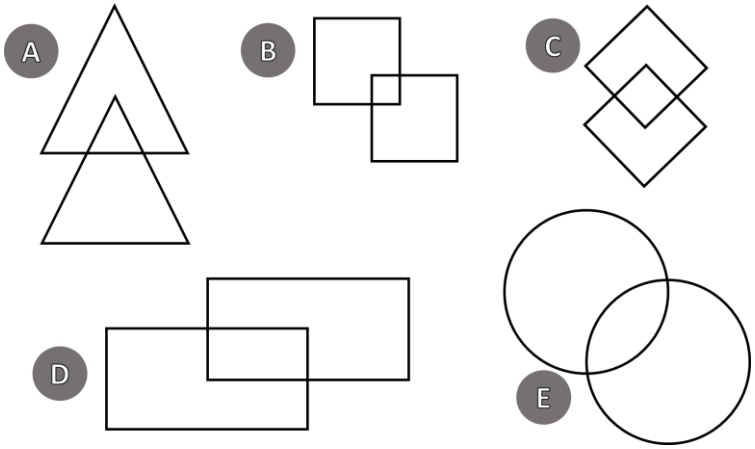

التحدي الثاني

Nada pèse des boules de trois couleurs différentes.
Les boules qui ont la même couleur ont aussi la même masse.

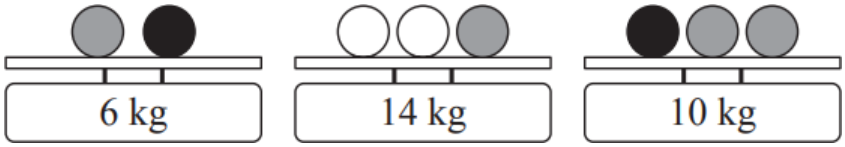

Quelle est la masse d'une boule blanche ?

A ☐ 3kg B ☐ 4kg C ☐ 5kg D ☐ 6kg E ☐ 7kg

التحدي الثالث

A ce jeu, on lance des balles pour faire tomber des boîtes. Chaque boîte qui tombe fait tomber avec elle toutes celles qui sont posées sur elle. A la fin du jeu, on additionne les points marqués sur les boîtes tombées. Avec une balle Sami a fait 32 points.

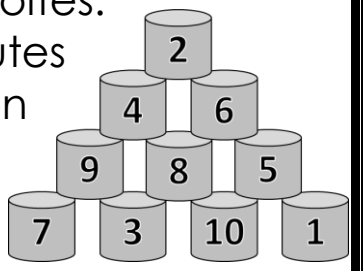

Quelle est la boîte touchée par Sami ?

التحدي الرابع

Notre savant a perdu la combinaison de son coffre qui est un nombre de 4 chiffres.

Par bonheur, il se souvient :

- Que le nombre de centaines est 39.
- Que le chiffre des unités est le double du chiffre des dizaines et que leur somme est 12.
- Ecrivez la combinaison du coffre !

التحدي الخامس
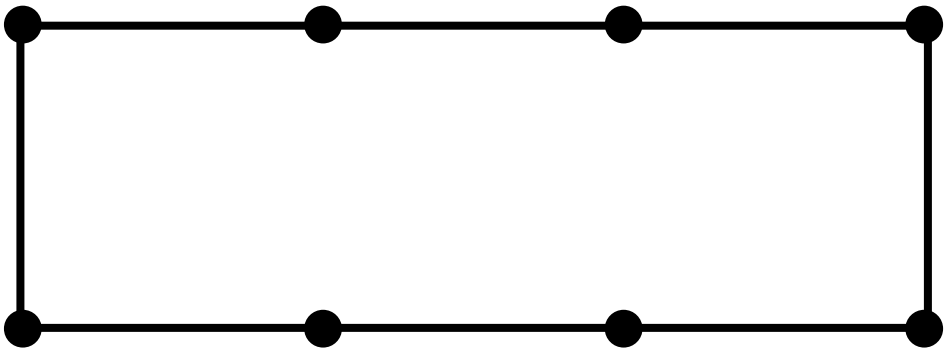
Trace seulement 2 traits pour apparaître 1 carré, 1 rectangle et 2 triangles.