Groupe Scolaire ESSALAM
d'enseignement privé
OUJDA

مجـموعة الســـــلام الدراسية
للتعـــليم الخصـــوصي
وجـــدة

الجولة الأولى من تحدي الرياضيات – الموسم الدراسي 2024-2023

مجموع النقاط:

الاسم العائلي والشخصي:..... - المستوى: الخامس ابتدائي

ملاحظة: تحصلون على 4 نقاط في كل مرة تكون إجابتكم على التحدي صحيحة، وعلى 0 نقطة في حالة الإجابة الخاطئة

## التحدي الأول

إذا ضربت عددا في 100 وحصلت على النتيجة 450 . فما هو هذا العدد من بين الأعداد التالية :

☐ 4,5 ☐ 0,45 ☐ 0,045 ☐ 0,0045

## التحدي الثاني

Il y a 5 horloges dans le hall. L'une avance d'une heure, une autre retarde d'une heure, une troisième donne l'heure exacte et les deux autres sont arrêtées.

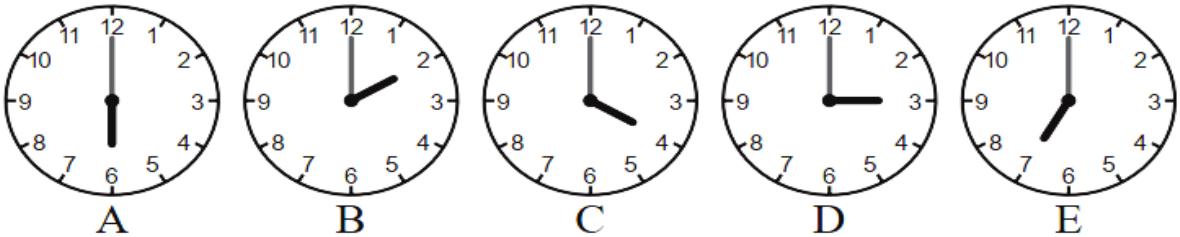


Laquelle donne l'heure exacte ?

☐ A ☐ B ☐ C ☐ D ☐ E

## التحدي الثالث

Combien y a-t-il de triangles dans cette figure ?

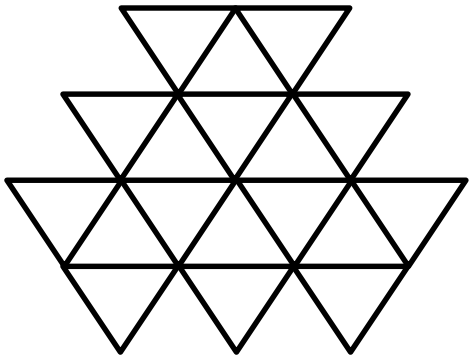

## التحدي الرابع



خزان ماء سعته 3500 لتر، استهلك منه في البداية 300 لتر ثم استهلك نصف ما تبقى فيه، فما هي الكمية المتبقية في الخزان.

اختر الإجابة الصحيحة مما يلي :

☐ 16 000 L ☐ 160 L ☐ 1600 L ☐ 1610 L

## التحدي الخامس

Cinq voitures numérotées 1, 2, 3, 4 et 5 roulent dans la même direction. Elles sont placées comme sur le dessin. Puis, la dernière voiture dépasse les deux voitures devant elle. Ensuite, l'avant-dernière dépasse les deux voitures devant elle. Et finalement, la voiture du milieu dépasse les deux voitures devant elle. Quel est alors l'ordre des voitures ?

A ☐ 1, 2, 3, 5, 4 B ☐ 2, 1, 3, 5, 4 C ☐ 2, 1, 5, 3, 4

D ☐ 3, 1, 4, 2, 5 E ☐ 4, 1, 2, 5, 3