Groupe Scolaire ESSALAM
d'enseignement privé
OUJDA

مجـموعة الســـــلام الدراسية
للتعـــليم الخصـــوصي
وجـــدة

الجولة الأولى من تحدي الرياضيات – الموسم الدراسي 2024-2023

مجموع النقاط:

الاسم العائلي والشخصي:..... - المستوى: الرابع ابتدائي

ملاحظة: تحصلون على 4 نقاط في كل مرة تكون إجابتكم على التحدي صحيحة، وعلى 0 نقطة في حالة الإجابة الخاطئة

التحدي الأول

حـدد عـدد الـبيـض فـي الشكـل التالـي؟



التحدي الثاني

Effectuez les calculs suivants et trouvez l'adjectif secret en appliquant le code.

400 700 = R	**74 050 = P**	**57 400 = S**	**40 075 = E**	**5 740 = U**

(5 x 10 000) + (7 x 1000) + (4 x 100) =..... → Lettre .....

(5 x 1 000) + (7 x 100) + (4 x 10) =..... → Lettre .....

(5 x 10) + (7 x 10 000) + (4 x 1 000) =..... → Lettre .....

(5 x 1) + (7 x 10) + (4 x 10 000) =..... → Lettre .....

(5 x 0) + (7 x 100) + (4 x 100 000) =..... → Lettre .....

Lapinot et **Lapus** sont invités à diner chez **Lapro** qui habite pierre 60.
Lapinot n'emprunte que pierres de la table de multiplication de 5.
Lapus n'emprunte que les pierres de la table de multiplication de 2.
Colorie en bleu le chemin emprunté par **Lapinot** et **en jaune celui de Lapus.**

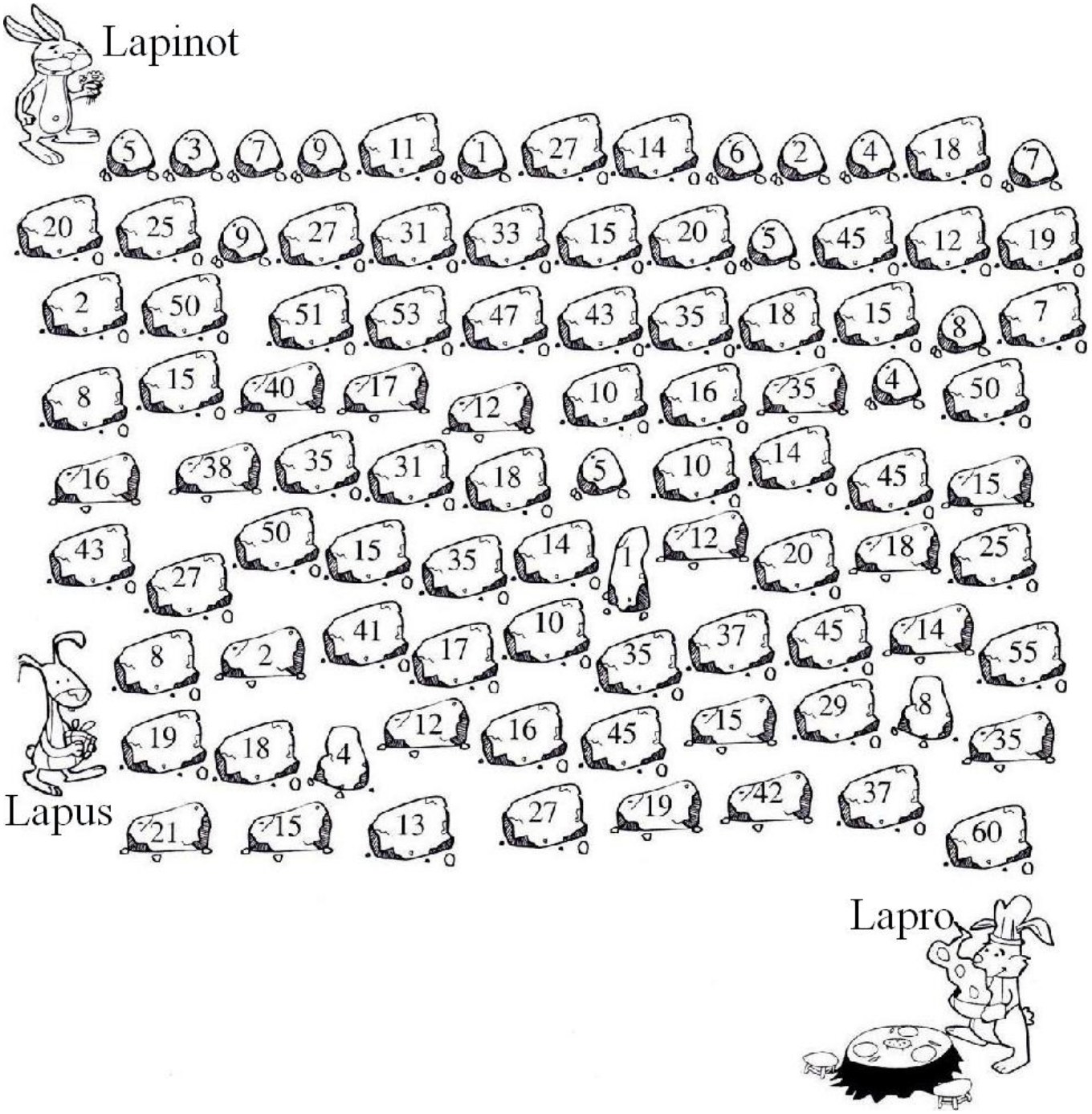

Combien de fois se sont-ils croisés avant de se retrouver chez **Lapro**?

التحدي الرابع

Leila s'amuse à plier un carré de papier puis à le trouer comme indiqué ci-contre.

Elle déplie ensuite son papier.

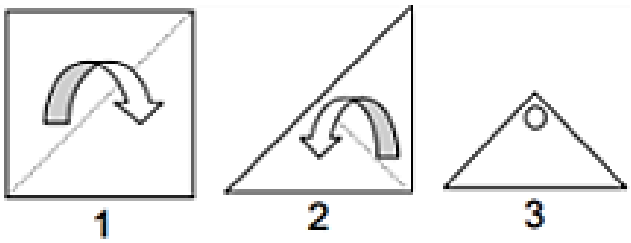

Qu'obtiendra-t-elle ? A ; B ; C ou D

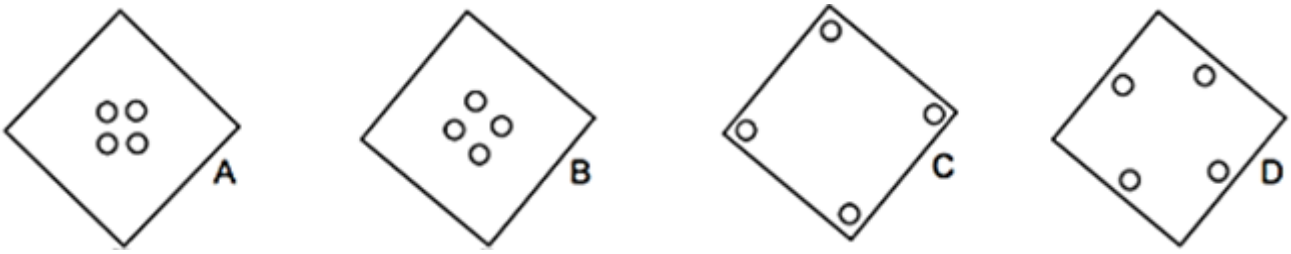

التحدي الخامس

Ahmed a exactement **10** cubes blancs ,**9** cubes gris et **8** cubes noirs, tous de la même taille. Il les assemble pour former un gros cube.
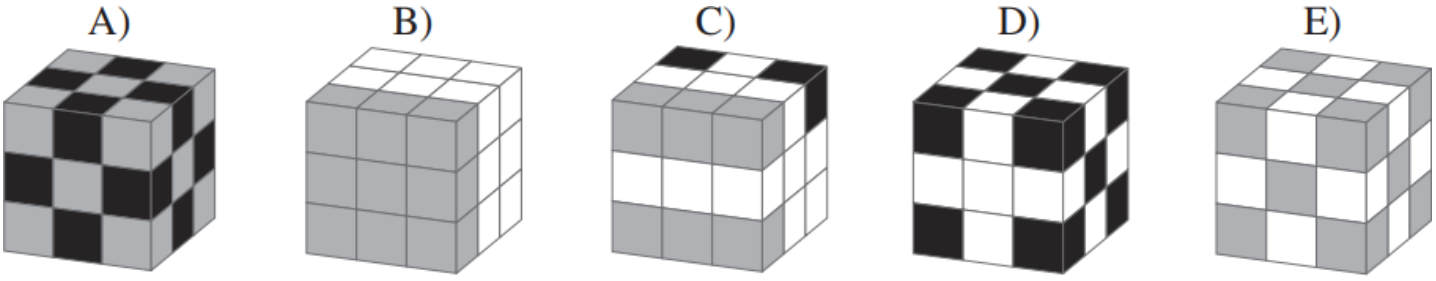
Lequel de ces cubes a-t-il construis ?