Groupe Scolaire ESSALAM
d'enseignement privé
OUJDA

مجـموعة الســـــلام الدراسية
للتعـــليم الخصـــوصي
وجـــدة

الجولة الأولى من تحدي الرياضيات – الموسم الدراسي 2024-2023

مجموع النقاط:

الاسم العائلي والشخصي:..... - المستوى: الثالث ابتدائي

ملاحظة: تحصلون على 4 نقاط في كل مرة تكون إجابتكم على التحدي صحيحة، وعلى 0 نقطة في حالة الإجابة الخاطئة

التحدي الأول

أكمل السلاسل العدديـة التالية.

19 17 15 13 ....

2 4 8 .... 256 512

التحدي الثاني

حـدد الـعـنصر الدخيل.

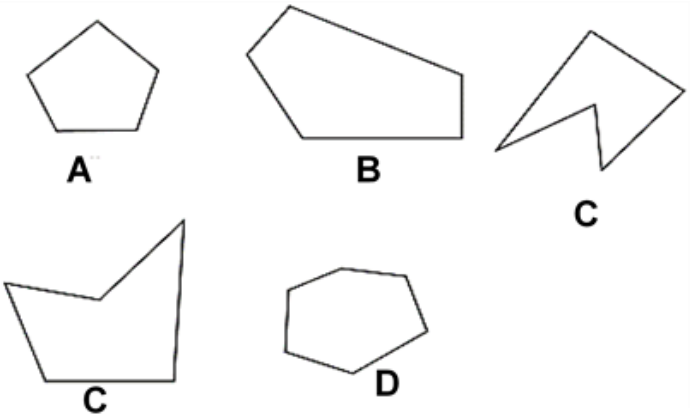

التحدي الثالث

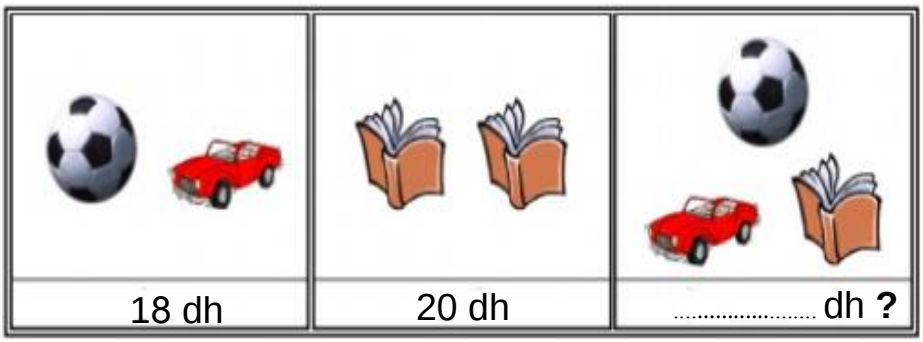

ما هو الثمن الـمطلوب مكان علامة الاستفهام؟

التحدي الرابع



ما هو العدد الذي يخفيه الضفدع ؟

التحدي الخامس

Youssef a empilé des cubes pour faire cette construction.
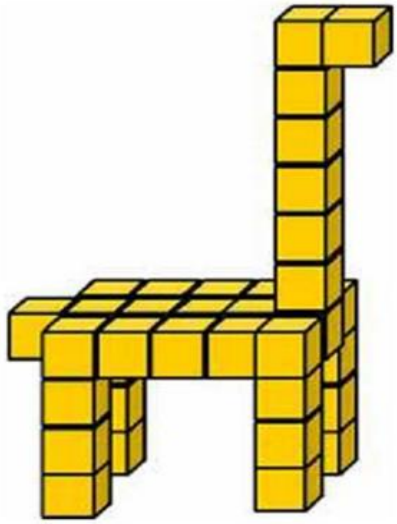
Combien de cubes a-t-il utilisé ?