Groupe Scolaire ESSALAM
d'enseignement privé
OUJDA

مجـموعة الســـــلام الدراسية
للتعـــليم الخصـــوصي
وجـــدة

الجولة الأولى من تحدي الرياضيات – الموسم الدراسي 2023-2024

مجموع النقاط:

الاسم العائلي والشخصي:..... - المستوى: الثاني ابتدائي

ملاحظة: تحصلون على **4 نقاط** في كل مرة تكون إجابتكم على التحدي صحيحة، وعلى **0 نقطة** في حالة الإجابة الخاطئة

التحدي الأول

ما هو رقم المسار الذي سيسلكه الفأر للوصول إلى الجبن ؟

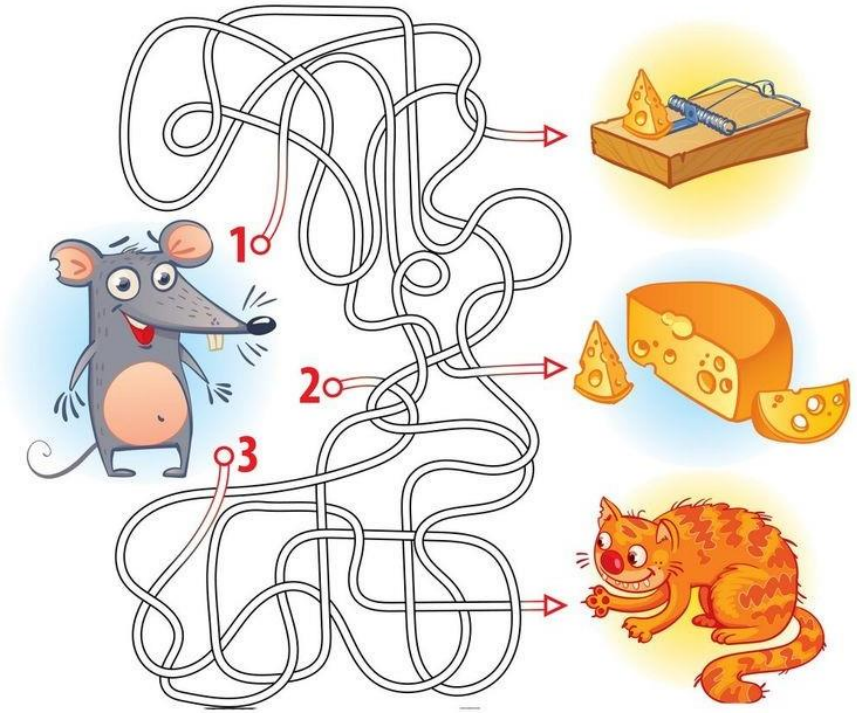

التحدي الثاني

يوجد في الشكل :  **5 مثلثات.**

لون مثلثا في كل شكل من الأشكال التالية.

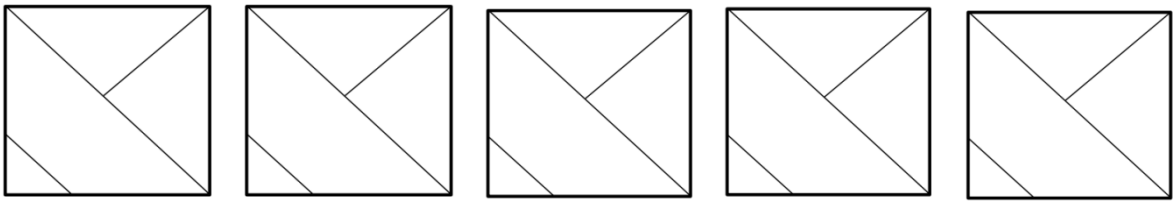

التحدي الثالث

ما هو الشكل الناقص؟



التحدي الرابع

ما هي الأعداد التي تخفيها الفواكه و علامة الاستفهام ؟

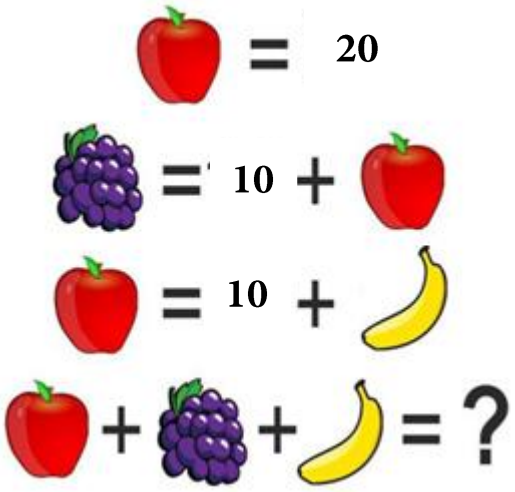



التحدي الخامس

من بين الأعداد التالية ، أوجد العدد :

- الأكبر من 20 و الأصغـر من 40.
- رقم وحداته أكبر من عشراته .