Groupe Scolaire ESSALAM
d'enseignement privé
OUJDA

مجـموعة الســـــلام الدراسية
للتعـــليم الخصـــوصي
وجـــدة

تحدي الرياضيات – الموسم الدراسي 2022-2023 – "الأسبوع رقم 9"
تمارين التدريب – المستوى: الخامس ابتدائي

1er Défi	التحدي الأول

قامت ولاء بإنجاز العملية التالية :

● 3 - ● 2 = 25

أوجد مجموع العددين اللذين قامت بإخفائهما .

المجموع هو:

2ème Défi	التحدي الثاني

Relie trois points pour obtenir les triangles demandés :

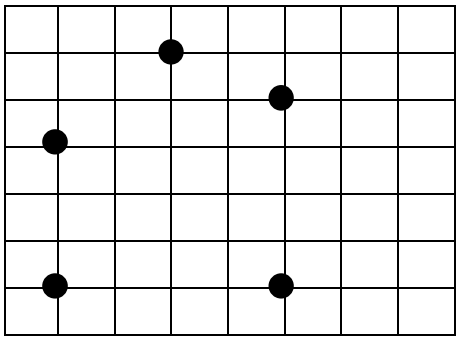

Un triangle isocèle

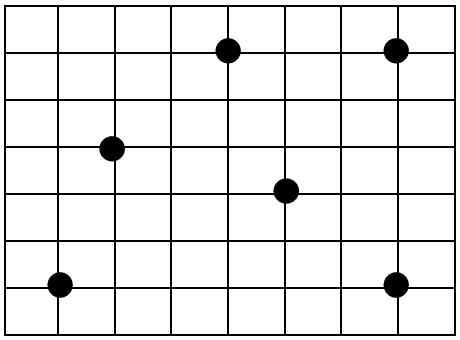

Un triangle équilatéral

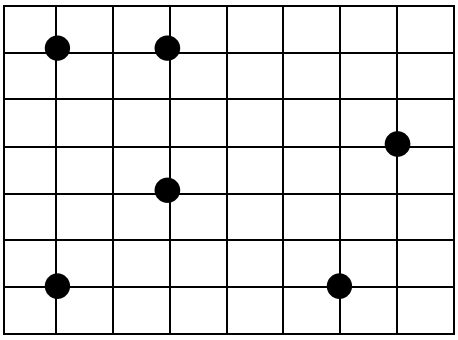

Un triangle rectangle