Groupe Scolaire ESSALAM
d'enseignement privé
OUJDA

مجموعة السلام الدراسية
للتعليم الخصوصي
وجدة

تحدي الرياضيات – الموسم الدراسي 2022-2023 – " الأسبوع رقم 7 "
تمارين التدريب – المستوى: الثالث ابتدائي

1er Défi	التحدي الأول

كم عدد المكعبات الصغيرة التي تم أخذها من المجسم التالي ؟

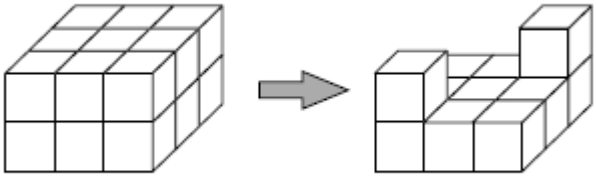

2ème Défi	التحدي الثاني

Voici une cible.

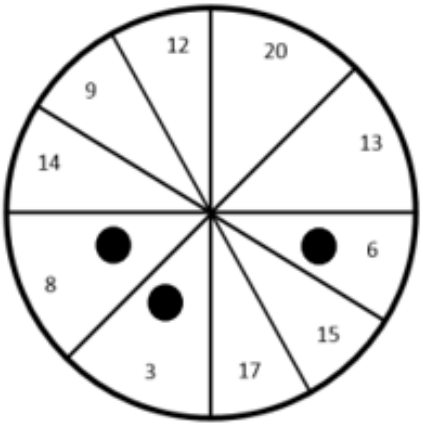

J'ai placé 1 pion (●) dans la zone **6**, 1 pion dans la zone **3** et un pion dans la zone **8**.

Cela fait au total un score de 17 points

(6 + 3 + 8 =17) .

Placez à votre tour 3 pions pour réaliser un score de 37 points.

On ne doit utiliser que les nombres figurant sur la cible.

Trouve 3 solutions différentes
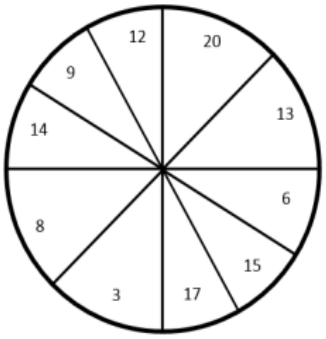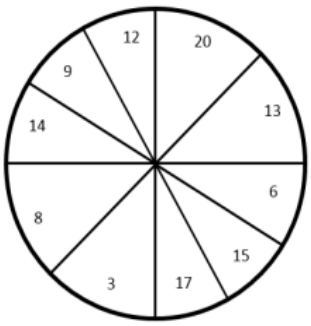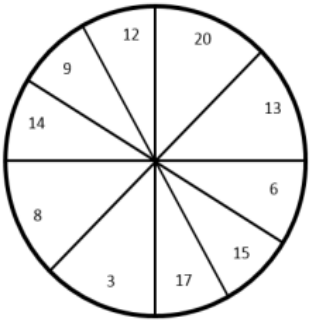
Aide possible :