Groupe Scolaire ESSALAM
d'enseignement privé
OUJDA

مجموعة السلام الدراسية
للتعليم الخصوصي
وجدة

DEFI MATHEMATIQUES ANNEE 2022-2023 « SEMAINE N° 4 »

Exercices d'Entrainement – Niveau : 3AC

1er Défi — التحدي الأول

La figure 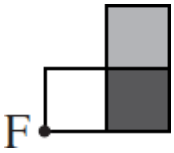

tourne d'un demi-tour autour de F.

Le résultat est :

A) 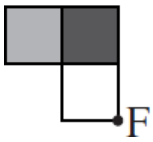

B) 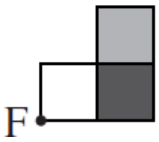

C) 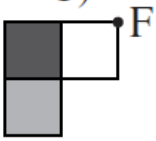

D) 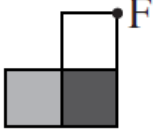

E)

2ème Défi — التحدي الثاني

Mehdi a choisi un nombre, l'a divisé par 7, puis a ajouté 7 et finalement multiplié par 7.

En ayant fait tout cela, il est arrivé à 777. De quel nombre était-il parti ?