Groupe Scolaire ESSALAM
d'enseignement privé
OUJDA

مجموعة السلام الدراسية
للتعليم الخصوصي
وجدة

DEFI MATHEMATIQUES ANNEE 2022-2023 « SEMAINE N° 21 »

Exercices d'Entrainement – Niveau : 2AC

1er Défi — التحدي الأول

Un de ces cubes correspond à celui qui est représenté déplié.

Lequel ?

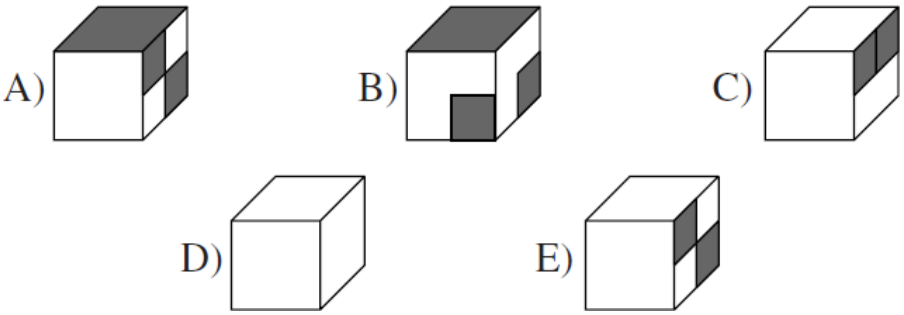

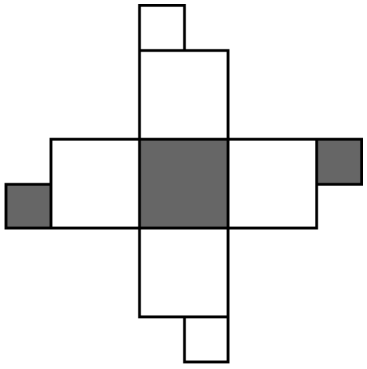

2ème Défi — التحدي الثاني

Voici 5 cartes avec un nombre entier marqué sur chaque côté :

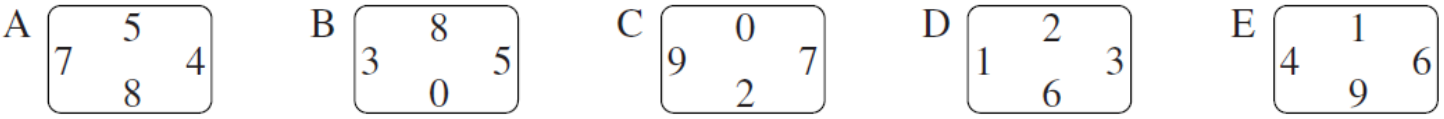

Ces cartes sont placées sans les faire tourner dans les positions I, II, III, IV et V montrées ci-contre de telle façon que les côtés adjacents portent le même numéro.

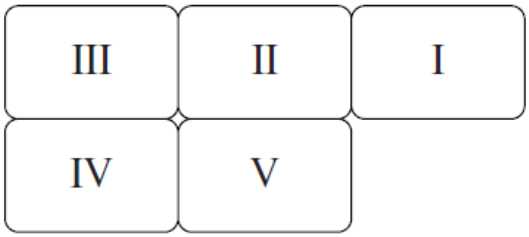

Quelle carte occupe la position III ?