Groupe Scolaire ESSALAM
d'enseignement privé
OUJDA

مجـموعة الســـــلام الدراسية
للتعـــليم الخصـــوصي
وجـــدة

DEFI MATHEMATIQUES ANNEE 2022-2023 « SEMAINE N° 2 »

Exercices d'Entrainement – Niveau : 1AC

1er Défi	التحدي الأول

Il y a trois objets sur la table.

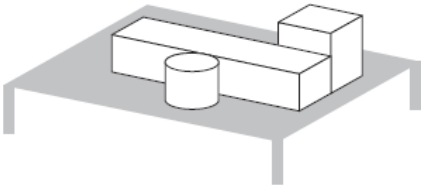

Que voit Ali quand il regarde la table d'au-dessus ?

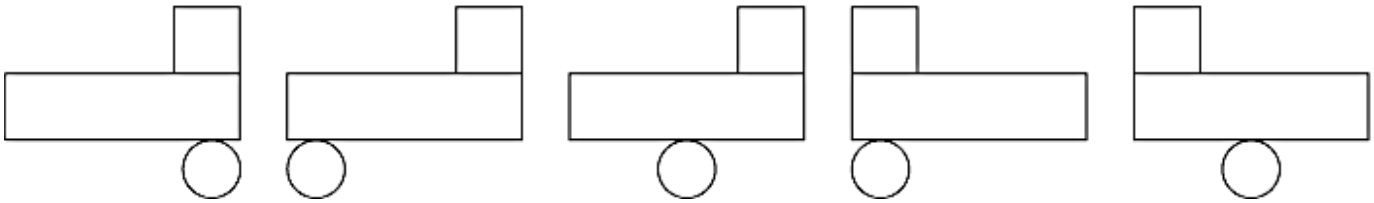

A ☐ B ☐ C ☐ D ☐ E ☐

2ème Défi	التحدي الثاني

La première fois, Anas a marqué **12 points** avec trois flèches dans la cible. La deuxième fois, il a marqué **15 points**.

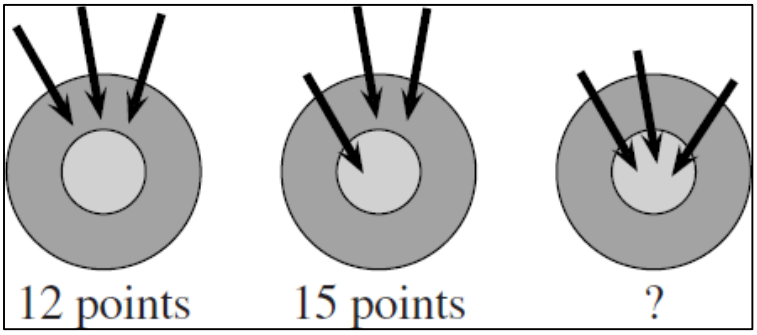

Combien de points a-t-il marqués la troisième fois ?