Groupe Scolaire ESSALAM
d'enseignement privé
OUJDA

مجـموعة الســـــلام الدراسية
للتعـــليم الخصـــوصي
وجـــدة

الجولة الثالثة من تحدي الرياضيات – الموسم الدراسي 2023-2022

مجموع النقاط:

الاسم العائلي والشخصي:..... - المستوى: الرابع ابتدائي

ملاحظة: تحصلون على **4 نقاط** في كل مرة تكون إجابتكم على التحدي صحيحة، وعلى **0 نقطة** في حالة الإجابة الخاطئة

التحدي الأول

Combien y a-t-il de morceaux de sucre dans cette boite lorsqu'elle pleine ?

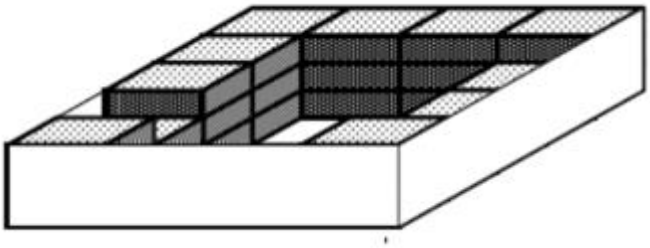

التحدي الثاني

Youssef dispose des quatre cartes sur lesquelles sont écrits les chiffres **0**,**1** ,**2** et **6**. Il peut former le nombre 2016.

En comptant 2016, **combien de nombres à quatre chiffres peut-il former à l'aide de ces quatre cartes.**

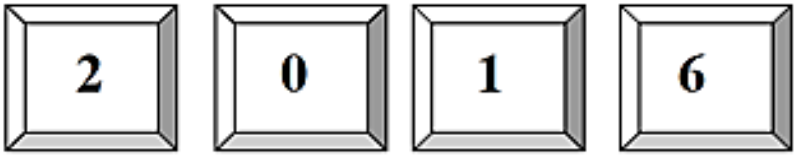

التحدي الثالث

ما هــو الــعــدد الــمــطــلوب مــكــان عــلامــة الاســتــفــهــام؟

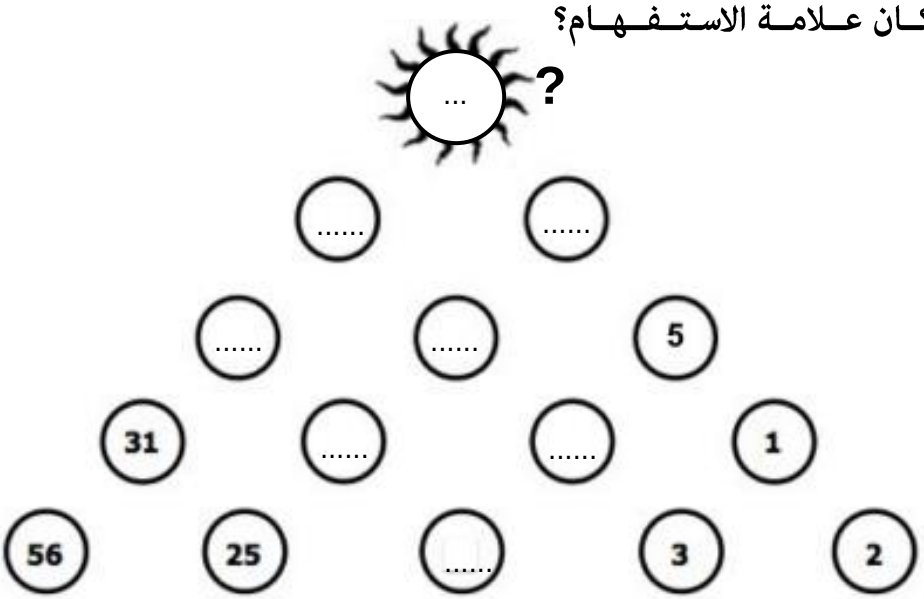

التحدي الرابع

La figure de gauche montre une construction faite avec des cubes identiques. Elle a été réalisée à partir du plan dessiné à droite, en empilant à chaque emplacement le nombre de cube indiqué. Sur le plan, deux nombres ne sont plus visibles.

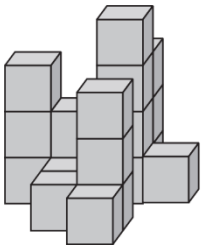



Combien vaut la somme de ces deux nombres ?

A) 3 B) 4 C) 5 D) 6 E) 7

التحدي الخامس

9 escargots avancent sur le chemin. Puis 3 poules arrivent .Elles mangent chacune 2 escargots. Puis le renard arrive et mange à son tour 2 poules.



Combien d'animaux se promènent maintenant sur le chemin ?