Groupe Scolaire ESSALAM
d'enseignement privé
OUJDA

مجـموعة الســـــلام الدراسية
للتعـــليم الخصـــوصي
وجـــدة

الجولة الثالثة من تحدي الرياضيات – الموسم الدراسي 2023-2022

مجموع النقاط:

الاسم العائلي والشخصي:..... - المستوى: الثالث ابتدائي

ملاحظة: تحصلون على **4 نقاط** في كل مرة تكون إجابتكم على التحدي صحيحة، وعلى **0 نقطة** في حالة الإجابة الخاطئة

التحدي الأول

Quel nombre qui peut logiquement remplacer le point d'interrogation ?

84 **72** **13** **31** **48** **25** **27** **?**.....

التحدي الثاني

حـــدد الـعـنـصـر (الشـكـل) الـدخـيـل؟

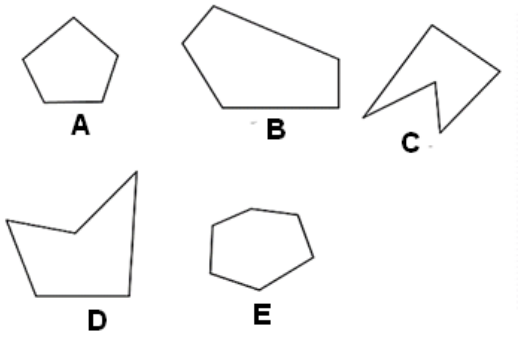

التحدي الثالث

En sautant de pierre en pierre, Mimi la reinette touche à chaque fois l'une des trois carrés et un nombre entre deux pierres.

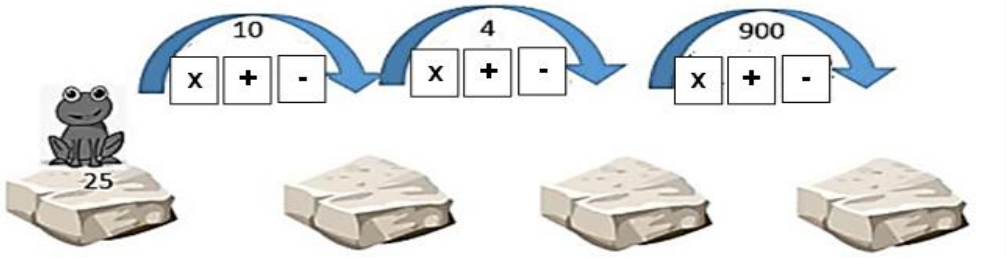

Par exemple, si elle saute de la première à la deuxième pierre en touchant [+] cela fait 25 +10

En revanche, si elle saute de la première à la deuxième pierre en touchant [x] cela fait 25 x 10.

Lorsqu'elle sur la dernière pierre, elle devra avoir un total de 100 : pouvez-vous l'aider ?

التحدي الرابع

Voici 16 dessins (à gauche), et dans le cadre de droite, leur négatif (c'est-à-dire, la même image avec les colleurs inversées)

Parmi les 16 dessins de droites, un seul n'est pas le négatif d'une figure de gauche. Lequel ?

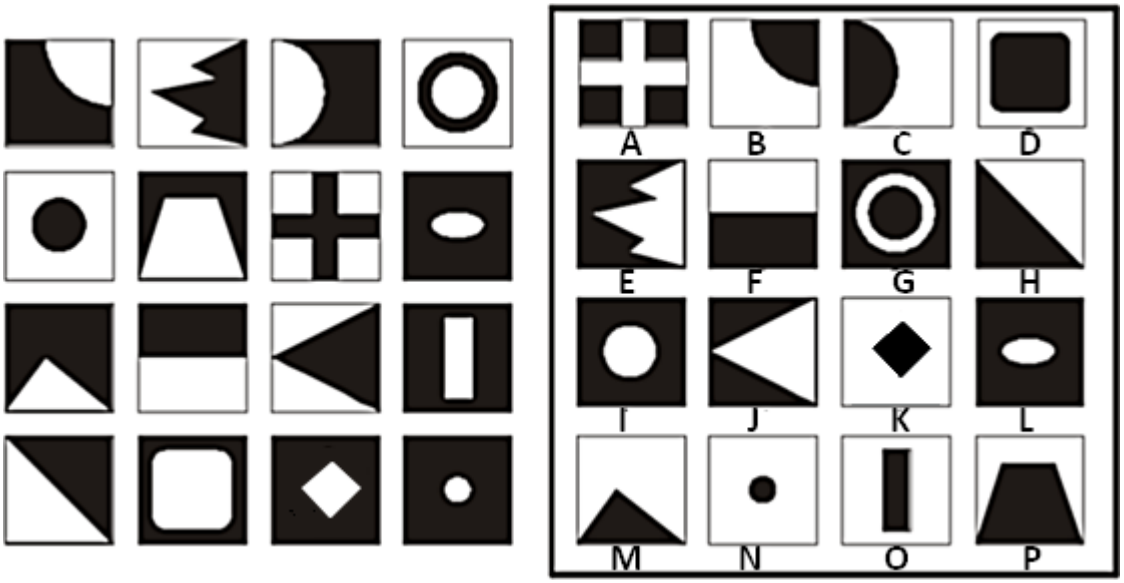

التحدي الخامس

التفاحات لها نفس الكتلة.

الإجاصات لها نفس الكتلة.

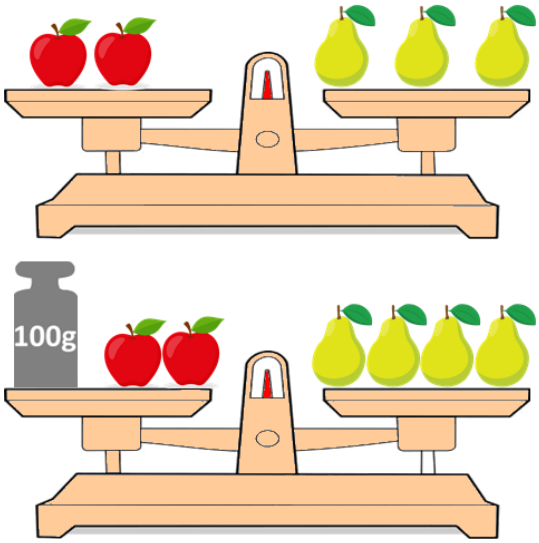

ماهي كتلة تفاحة واحدة؟