Groupe Scolaire ESSALAM
d'enseignement privé
OUJDA

مجـموعة الســـــلام الدراسية
للتعـــليم الخصـــوصي
وجـــدة

الجولة الثالثة من تحدي الرياضيات – الموسم الدراسي 2023-2022

مجموع النقاط:

الاسم العائلي والشخصي:..... - المستوى: الثاني ابتدائي

ملاحظة: تحصلون على **4 نقاط** في كل مرة تكون إجابتكم على التحدي صحيحة، وعلى **0 نقطة** في حالة الإجابة الخاطئة

التحدي الأول

حدد عدد المثلثات في الشكل التالي:

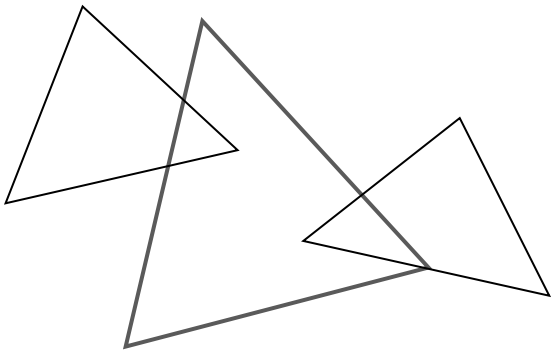

7	6	5	4
☐	☐	☐	☐

التحدي الثاني

ما هو الشكل الناقص ؟

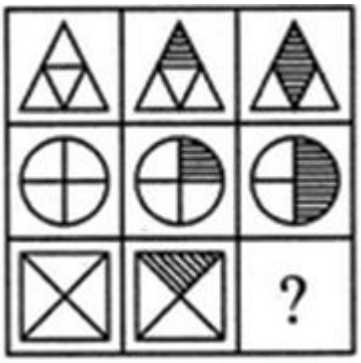

1	2	3	4

التحدي الثالث

شارك ثلاثة أصدقاء في مسابقة الرماية ، فحصل ياسين على أكبر عدد من النقاط .

ما هي النتيجة التي حصل عليها ؟

التحدي الرابع

أوجد ثمن كل لعبة و المبلغ الذي تخفيه علامة الاستفهام :

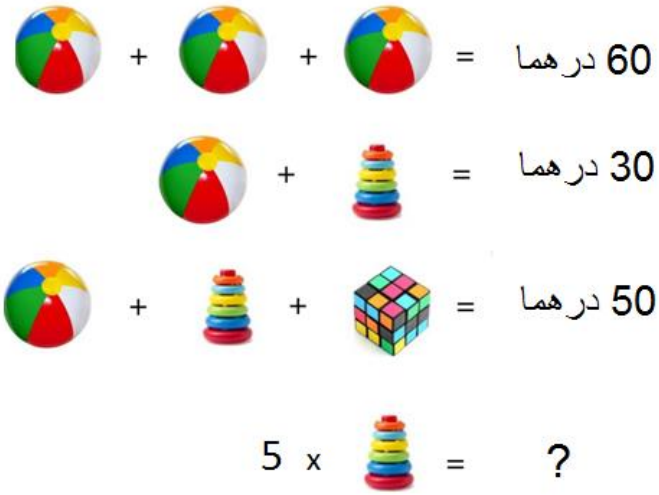

..... درهما

..... دراهم

..... درهما

..... درهما = ?

التحدي الخامس
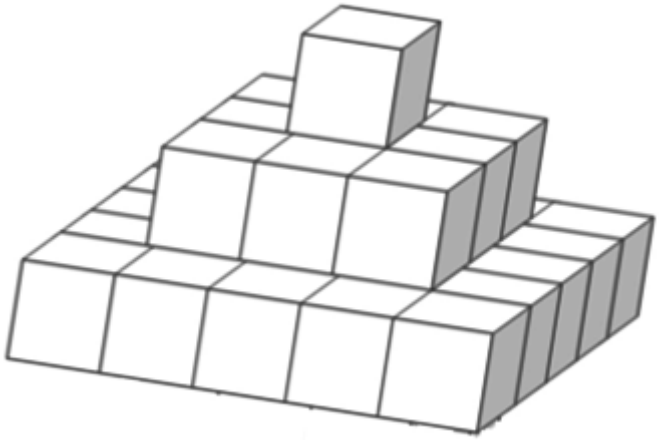
كم عدد المكعبات في التركيب التالي ؟