Groupe Scolaire ESSALAM
d'enseignement privé
OUJDA

مجـموعة الســـــلام الدراسية
للتعـــليم الخصـــوصي
وجـــدة

الجولة الثالثة من تحدي الرياضيات – الموسم الدراسي 2023-2022

مجموع النقاط:

الاسم العائلي والشخصي:..... - المستوى: الأول ابتدائي

ملاحظة: تحصلون على **4 نقاط** في كل مرة تكون إجابتكم على التحدي صحيحة، وعلى **0 نقطة** في حالة الإجابة الخاطئة

التحدي الأول

ما هو المفتاح المناسب لفتح القفل التالي ؟

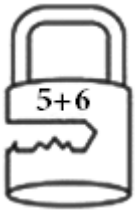

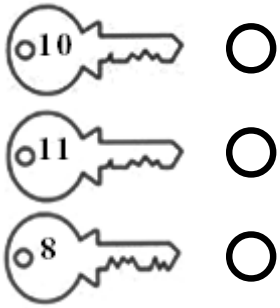

التحدي الثاني

اكتب العدد الذي تمثله النجمة .

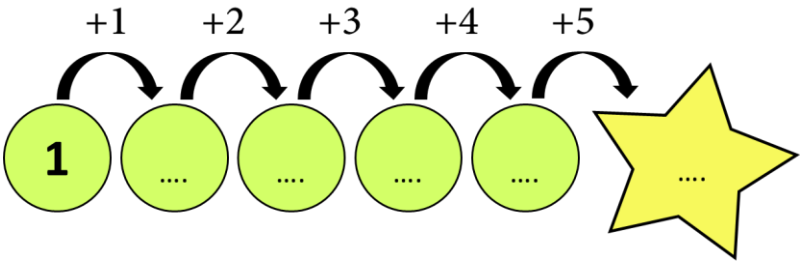

التحدي الثالث

تعلق في الصنارة كل سمكة عليها مجموع يساوي 11.

ما هي الأسماك التي سيحصل عليها الصياد ؟

التحدي الرابع

ما هو الشكل الناقص؟



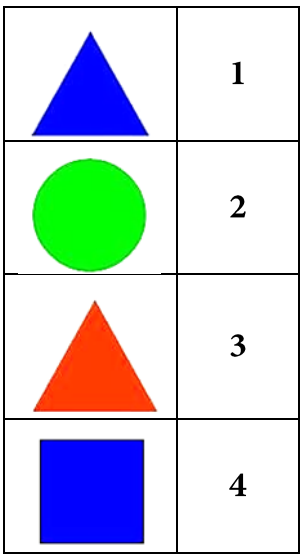

التحدي الخامس
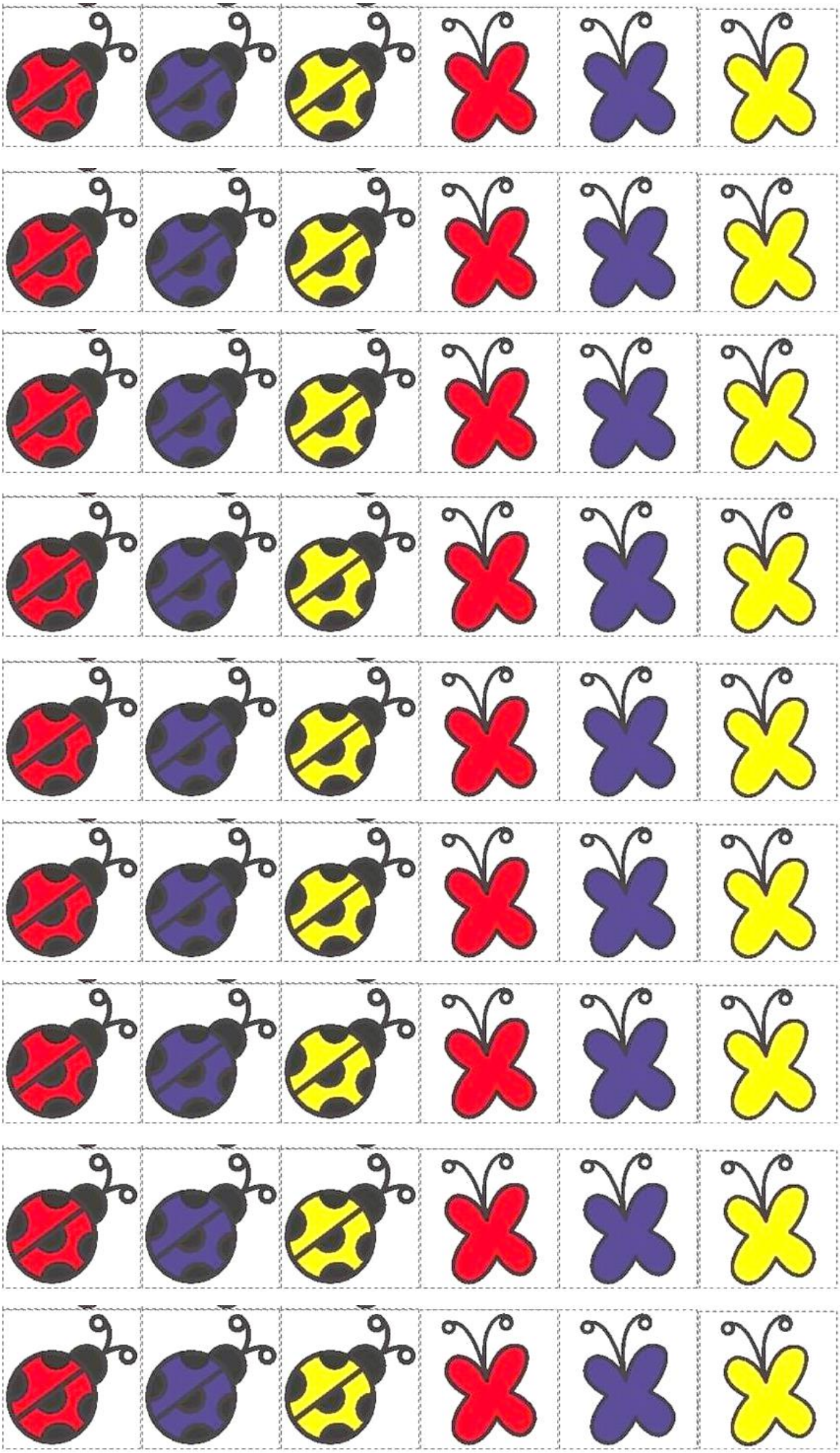
ضع كل رسم في الخانة المناسبة .