Groupe Scolaire ESSALAM
d'enseignement privé
OUJDA

مجموعة السلام الدراسية
للتعليم الخصوصي
وجدة

3ème manche du Défimaths – Année scolaire 2022-2023

Score :

Nom et prénom : ..... Niveau : 1AC

Remarque : Vous gagnez 4 points pour chaque réponse correcte et 0 point pour chaque mauvaise réponse

1er Défi

Nous sommes en 2005. Dans cent ans, nous serons en :

A☐ 2000105 B☐ 2500 C☐ 2150 D☐ 2105 E☐ 3005

2ème Défi

Kenza habite avec son père, sa mère, son frère et aussi un chien, deux chats, deux perroquets et quatre poissons rouges. Quand ils sont ensemble dans la maison, combien de jambes et pattes y a-t-il en tout ?

3ème Défi

Kanga a correctement écrit ce calcul. Sur quel nombre s'est-elle assise ?

A ☐ 200

B ☐ 1825

C ☐ 2185

D ☐ 1775

E ☐ 1800

2005 – 205 = **+ 25**

4ème Défi

Un de ces cubes correspond à celui qui est représenté déplié. Lequel?

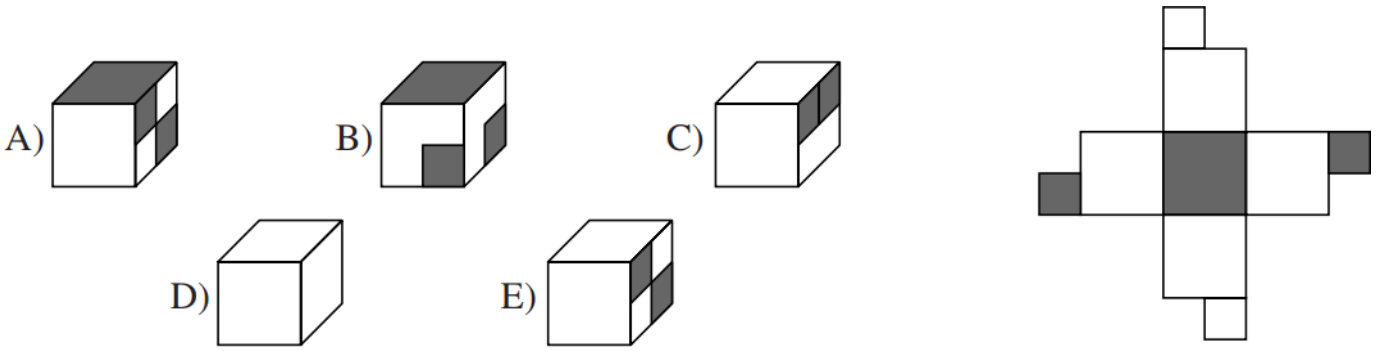

5ème Défi

Voici 5 cartes avec un nombre entier marqué sur chaque côté:

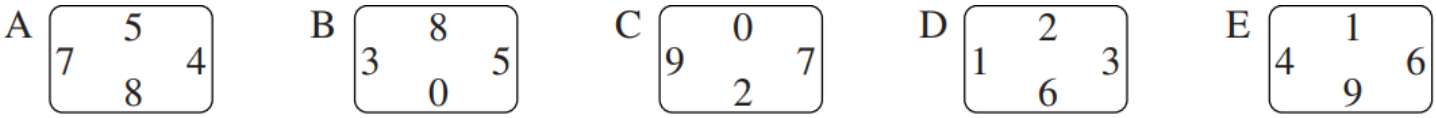

Ces cartes sont placées sans les faire tourner dans les positions I, II, III, IV et V montrées ci-contre de telle façon que les côtés adjacents portent le même numéro.

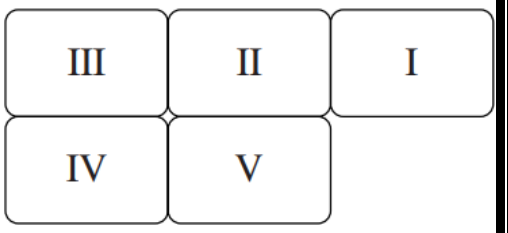

Quelle carte occupe la position III ?

☐A ☐B ☐C ☐D ☐E