Groupe Scolaire ESSALAM
d'enseignement privé
OUJDA

مجـموعة الســـــلام الدراسية
للتعـــليم الخصـــوصي
وجـــدة

الجولة الثانية من تحدي الرياضيات – الموسم الدراسي 2023-2022

الاسم العائلي والشخصي:..... - المستوى: الثالث ابتدائي

مجموع النقاط:

ملاحظة: تحصلون على **4 نقاط** في كل مرة تكون إجابتكم على التحدي صحيحة، وعلى **0 نقطة** في حالة الإجابة الخاطئة

التحدي الأول

أوجد العدد المطلوب مكان علامة الاستفهام؟



التحدي الثاني

Cherchez tous les carrés de 4 cases qui font 10 comme dans le carré gris.

Entourez-les avec des couleurs différentes.

5	5	1	5	1	1
1	1	2	3	5	6
5	1	5	3	2	1
4	5	3	1	1	5
3	2	1	1	5	3

التحدي الثالث

أرسم المسار الذي سيسلكه الفأر علما انه سيمر فقط من المثلثات. ثم أكتب الحرف الذي يمثل نقطة الخروج.



التحدي الرابع

Je colorie le chemin en respectant la consigne donnée.

Avance toujours vers un nombre plus petit.

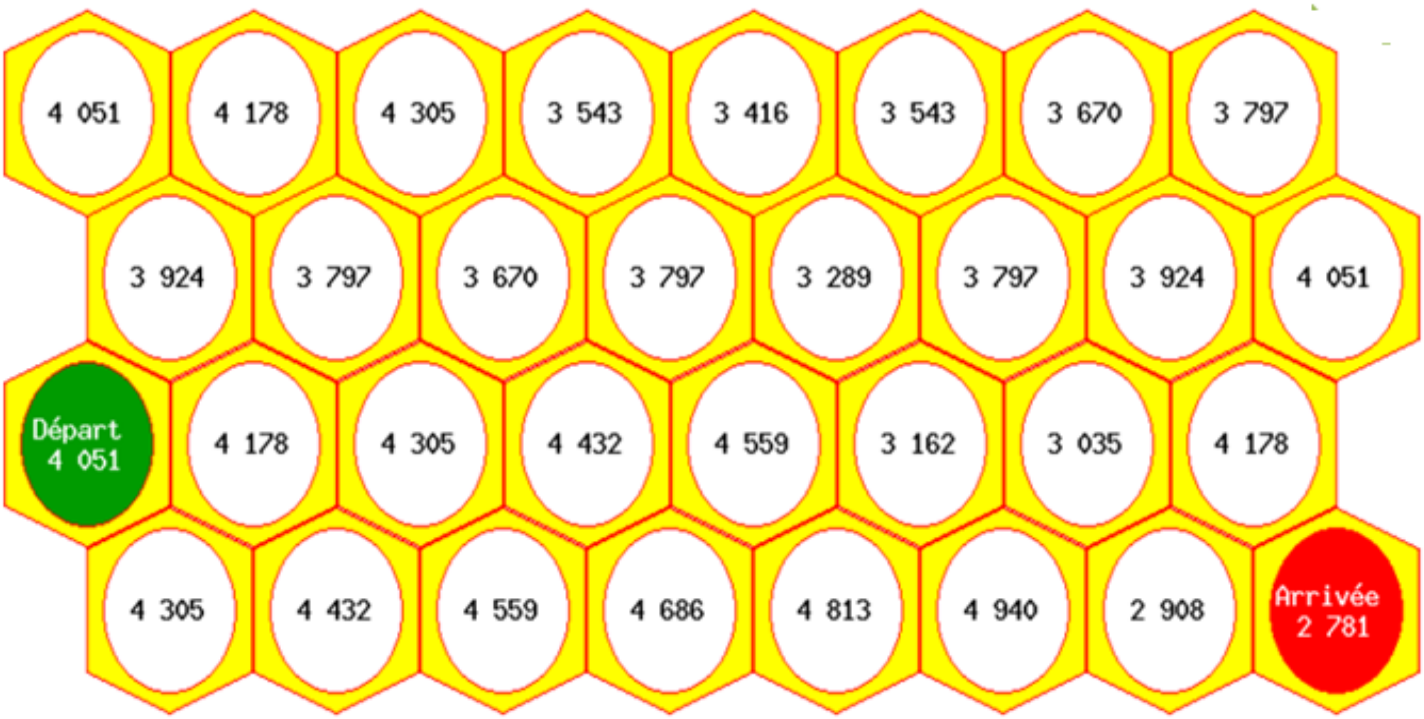

التحدي الخامس

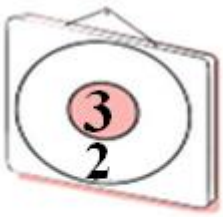

Ahmed a lancé 9 flèches dans la cible. En tout, il obtient 23 points.

Combien de flèches a-t-il lancé au centre ?

Combien de flèches a-t-il lancé autour du centre ?