Groupe Scolaire ESSALAM
d'enseignement privé
OUJDA

مجـموعة الســـــلام الدراسية
للتعـــليم الخصـــوصي
وجـــدة

الجولة الأولى من تحدي الرياضيات – الموسم الدراسي 2022-2023

مجموع النقاط:

الاسم العائلي والشخصي:..... - المستوى: الثالث ابتدائي

ملاحظة: تحصلون على **4 نقاط** في كل مرة تكون إجابتكم على التحدي صحيحة، وعلى **0 نقطة** في حالة الإجابة الخاطئة

التحدي الأول

Avec les informations ci-dessus, **trouve le prix de chaque jouet** :

=..... dh

=..... dh

=..... dh

التحدي الثاني

يتم التنقل في هذه الشبكة من خانة إلى أخرى بإضافة 2.

ألـون الخانات الذي سيمـر منها الأسد ليصل إلى اللحم.

23	25	27	32	35	37	39	41
5	21	29	31	33	34	9	43
39	33	5	37	6	22	13	45
36	5	58	55	53	51	49	47
7	15	53	57	10	69	5	4
29	9	67	59	12	7	66	1
11	9	11	61	63	65	64	9
33	3	7	9	26	67	69	71

التحدي الثالث

Ahmed a fabriqué une table avec des petits cubes emboités.

La table a quatre pieds. Elle est représentée ci- contre.

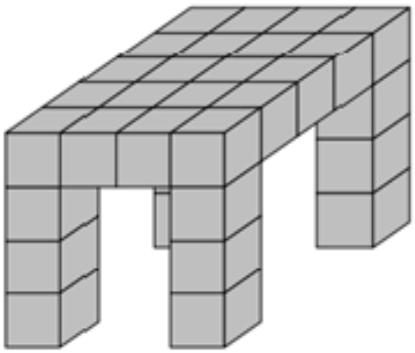

Combien de cubes a-t-il utilisé?

التحدي الرابع

Voici, ci-contre, le schéma de la maison de Youssef quand il se trouve devant.



L'arrière de sa maison a 3 fenêtres et n'a pas de porte.

Lequel de ces schémas peut être celui de la maison de Youssef, vue de derrière ?

A ☐ B ☐ C ☐ D ☐ E ☐

التحدي الخامس

لدى أيمن أقراص مرقمة من 1 إلى 8. أراد وضعها داخل الدوائر التي توجد في الـشكل أسفله حيث مجموع الأعداد على كل مستقيم دائما يساوي 12. لقد وضع القرص 1 والقرص 5.

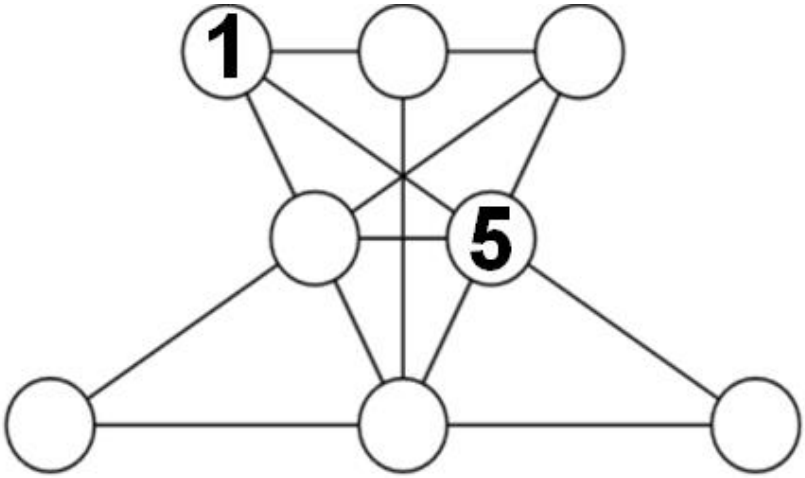

ساعد أيمن على وضع باقي الأقراص فـي مكـانها الـمناسـب ؟

~~1~~ 2 3 4 ~~5~~ 6 7 8