Groupe Scolaire ESSALAM d'enseignement privé OUJDA	مجـموعة الســـــلام الدراسية للتعـــليم الخصـــوصي وجـــدة	

تحدي الرياضيات – الموسم الدراسي 2021-2022 – "الأسبوع رقم 22"
تمارين التدريب – المستوى: الثالث ابتدائي

1er Défi	التحدي الأول

هذه مجموعة أقنعة أنشأها خالد باستعمال أشكال هندسية.إنها مجموعة جميلة إلاإن خالد لاحظ أن هذه المجموعة غير مكتملة وينقصه قناع واحد.

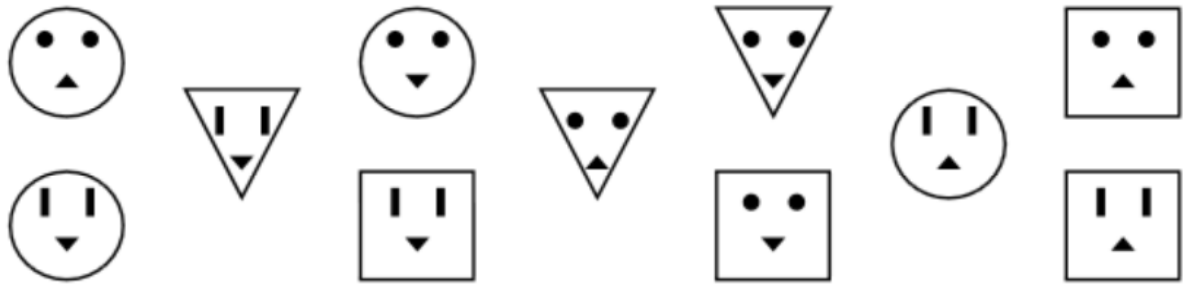

أرسم القناع الذي ينقص خالد لإتمام هذه المجموعة.

2ème Défi	التحدي الثاني

La pesée

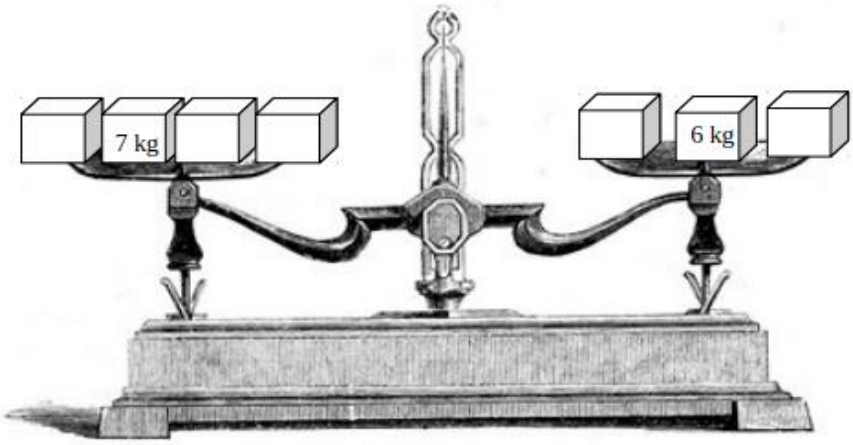

Placez les poids de 1 kg , 2kg , 3 kg , 4kg et 5 kg sur les objets pour que la balance soit en équilibre.

(Attention un poids n'est utilisé qu'une seule fois !)

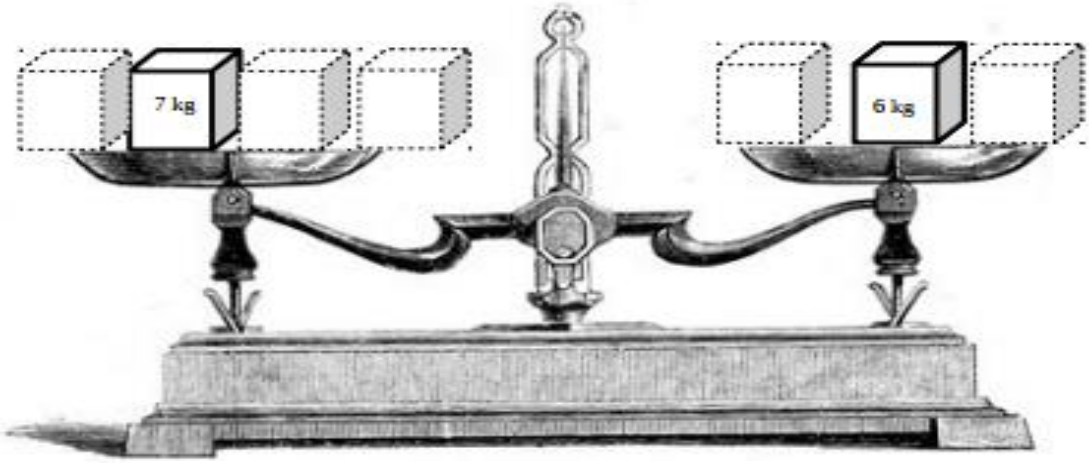
7 kg
6 kg

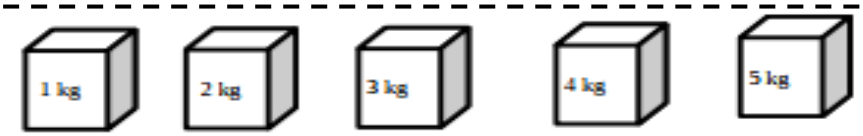
1 kg
2 kg
3 kg
4 kg
5 kg

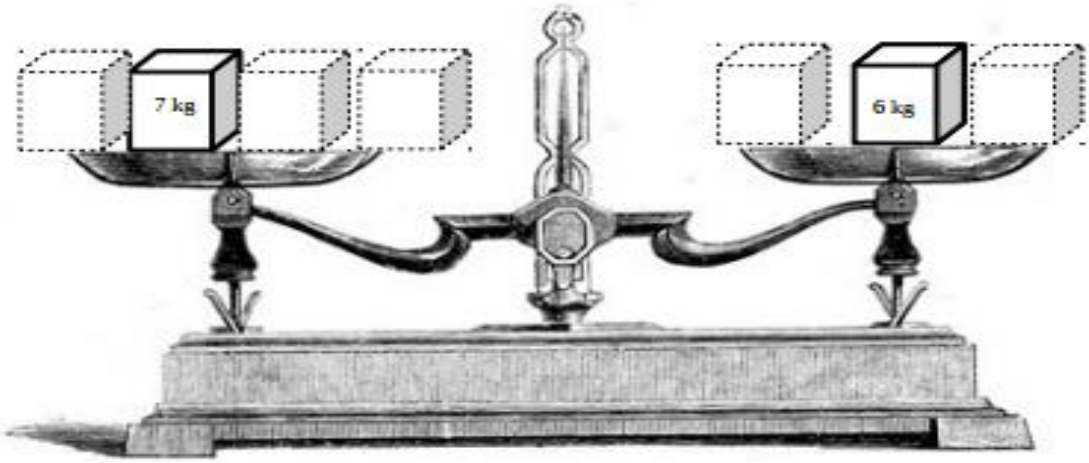
7 kg
6 kg

1 kg
2 kg
3 kg
4 kg
5 kg

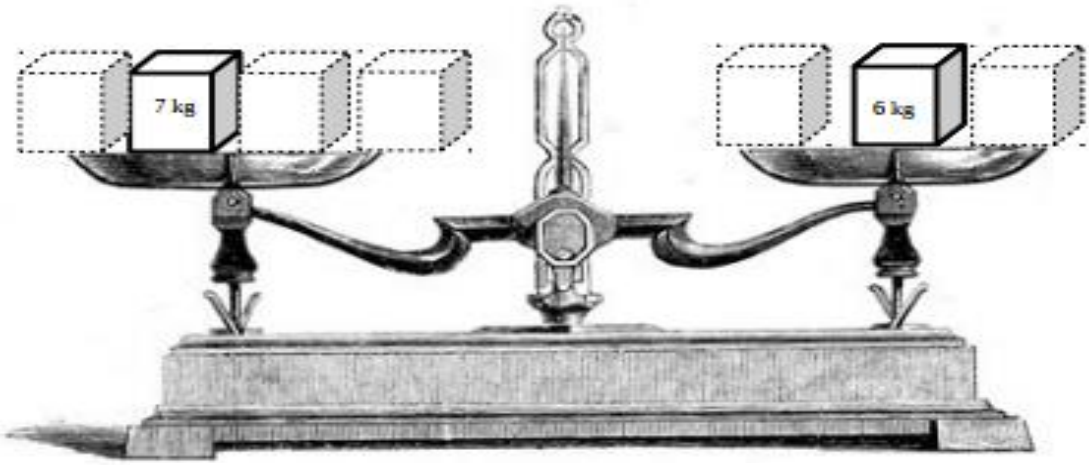
7 kg
6 kg

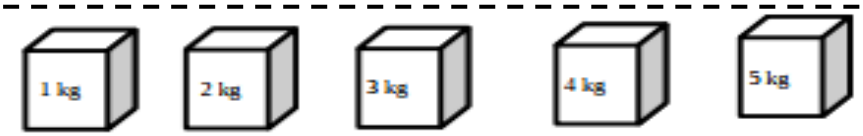
1 kg
2 kg
3 kg
4 kg
5 kg