Groupe Scolaire ESSALAM d'enseignement privé OUJDA	مجـموعة الســـــلام الدراسية للتعـــليم الخصـــوصي وجـــدة	

تحدي الرياضيات – الموسم الدراسي 2021-2022 – "الأسبوع رقم 20 "

تمارين التدريب – المستوى: الثالث ابتدائي

1er Défi	التحدي الأول

Mohammed pèse des boules de trois couleurs différentes.

Les boules qui ont la même couleur ont aussi la même masse.

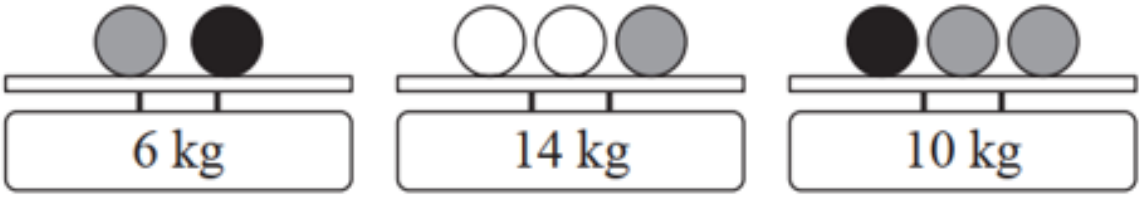

Quelle est la masse d'une boule blanche ?

2ème Défi	التحدي الثاني

أكتب الأعداد من 1 إلى 9 داخل الخانات البيضاء حيث يكون العدد المكتوب داخل الخانة الرمادية هو مجموع الأعداد المكتوبة داخل الخانات البيضاء.
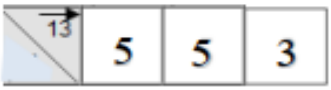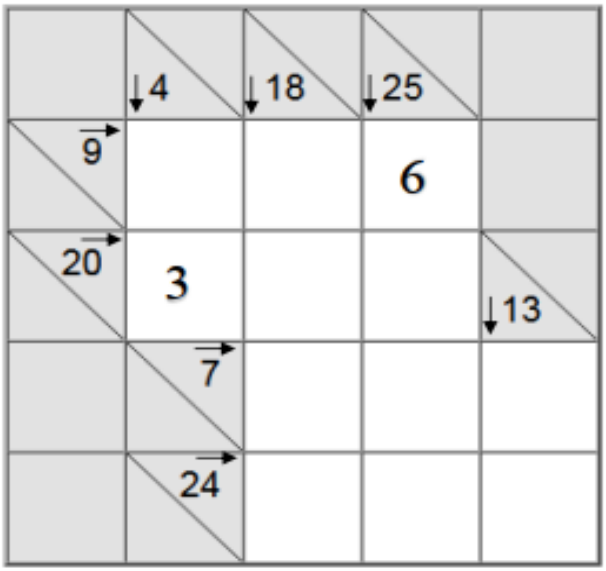
مثال