Groupe Scolaire ESSALAM
d'enseignement privé
OUJDA

مجموعة السلام الدراسية
للتعليم الخصوصي
وجدة

DEFI MATHEMATIQUES ANNEE 2021-2022 « SEMAINE N° 20 »

Exercices d'Entrainement – Niveau : 1AC

1er Défi	التحدي الأول

Il y a trois objets sur la table.

Que voit Anas quand il regarde la table d'au-dessus ?

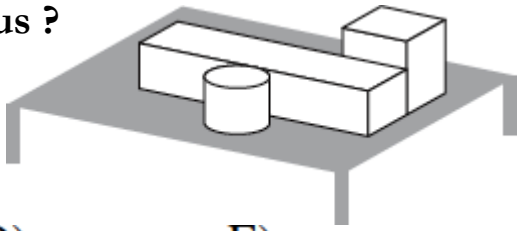

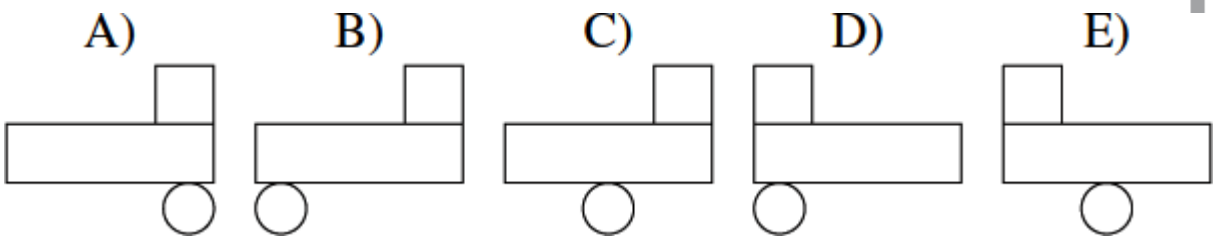

2ème Défi	التحدي الثاني
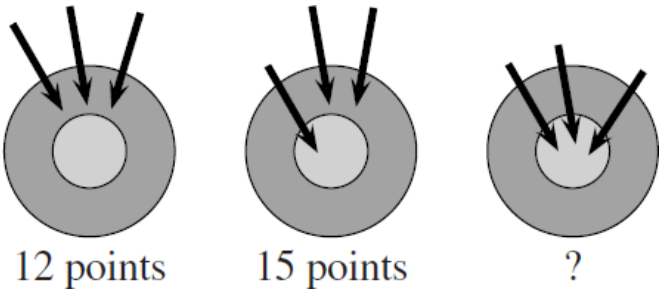
La première fois, Rayan a marqué 12 points avec trois flèches dans la cible. La deuxième fois, il a marqué 15 points. Combien de points a-t-il marqués la troisième fois ?