Groupe Scolaire ESSALAM d'enseignement privé OUJDA	مجـموعة الســـــلام الدراسية للتعـــليم الخصـــوصي وجـــدة	

تحدي الرياضيات - الموسم الدراسي 2021-2022 - "الأسبوع رقم 12 "
تمارين التدريب - المستوى: الثالث ابتدائي

1er Défi	التحدي الأول

كم عدد المثلثات في الشكل التالي؟

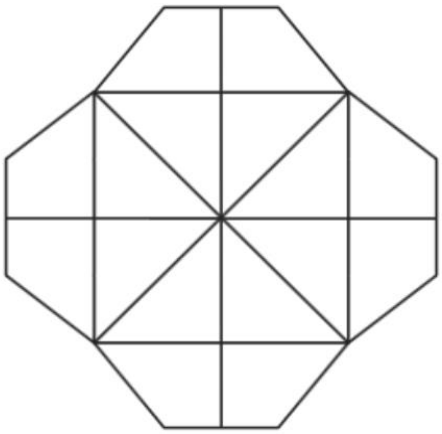

2ème Défi	التحدي الثاني

Où envoyer 4 fléchettes pour obtenir un score de 67 points dans cette cible?



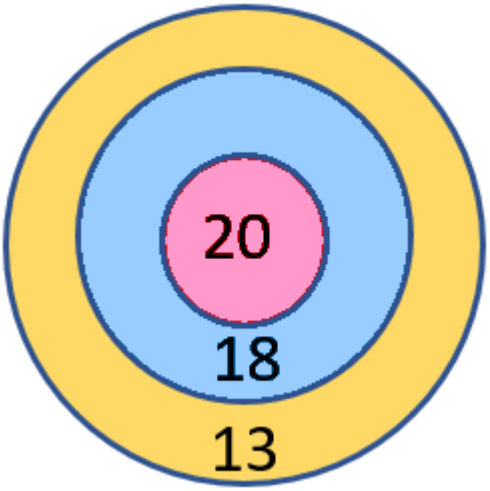

Groupe Scolaire ESSALAM
d'enseignement privé
OUJDA

مجموعة السلام الدراسية
للتعليم الخصوصي
وجدة

ورقة المساعدة – المستوى: الثالث ابتدائي

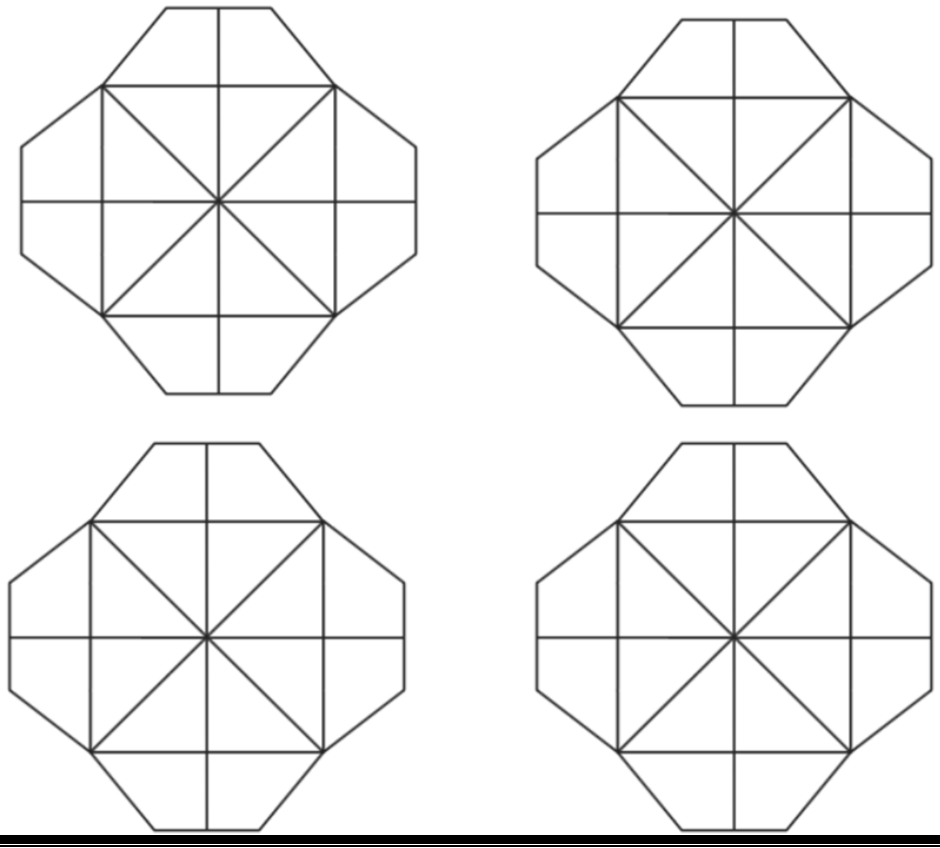

Groupe Scolaire ESSALAM
d'enseignement privé
OUJDA

مجموعة السلام الدراسية
للتعليم الخصوصي
وجدة
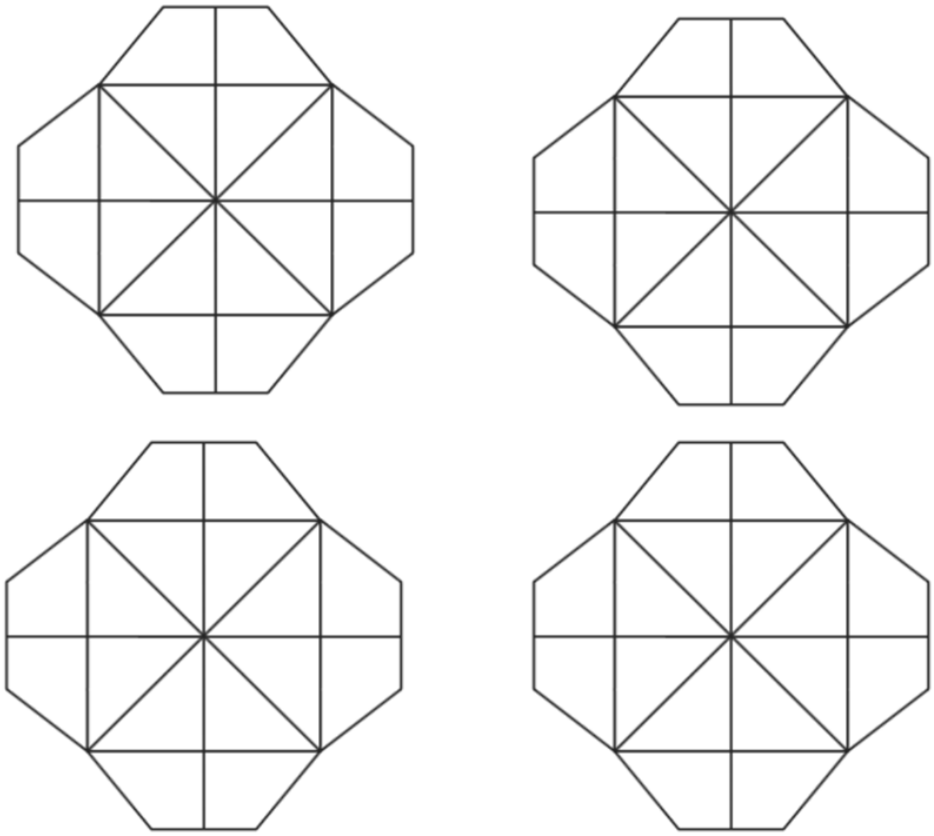
ورقة المساعدة – المستوى: الثالث ابتدائي