Groupe Scolaire ESSALAM
d'enseignement privé
OUJDA

مجـموعة الســـــلام الدراسية
للتعـــليم الخصـــوصي
وجـــدة

تحدي الرياضيات – الموسم الدراسي 2021-2022 – "الأسبوع رقم 10 "
تمارين التدريب – المستوى: الثاني ابتدائي

1er Défi	التحدي الأول

أوجد المسار الذي تخفيه علامة الاستفهام، بحيث:

1. يستطيع الفأر الوصول إلى قطعة الجبن.
2. يستطيع القط الوصول إلى الحليب.
3. القط والفأر لا يلتقيان.

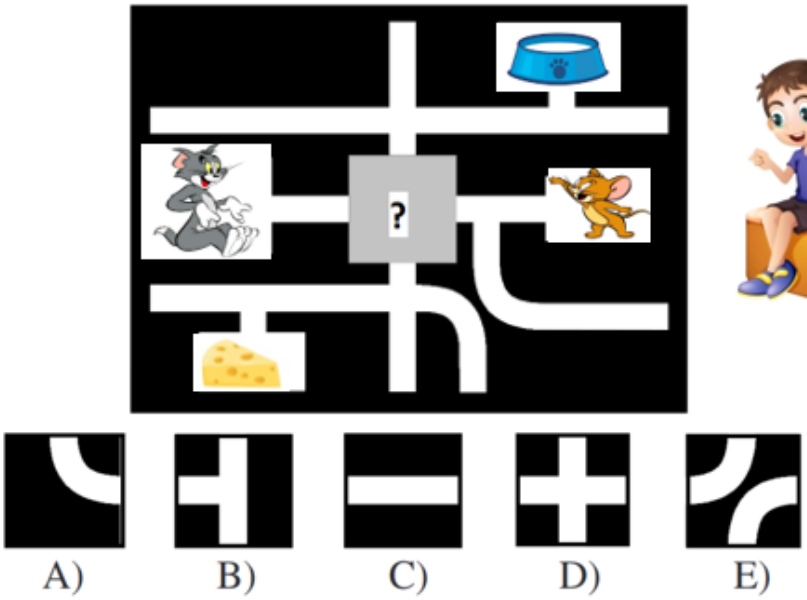

2ème Défi	التحدي الثاني

Dans cette pyramide, chaque brique est égale à la somme des deux briques qui sont en dessous.

Exemple :

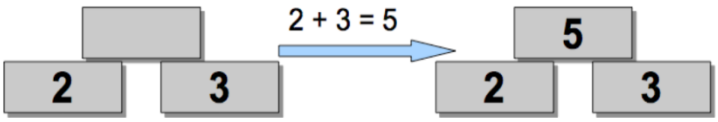
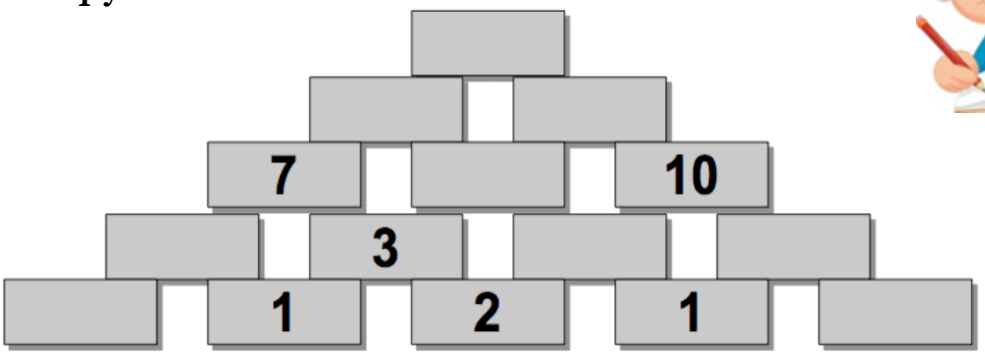
➢ **Complète la pyramide suivante :**