Groupe Scolaire ESSALAM
d'enseignement privé
OUJDA

مجـموعة الســـــلام الدراسية
للتعـــليم الخصـــوصي
وجـــدة

الجولة الثانية من تحدي الرياضيات – الموسم الدراسي 2022-2021

مجموع النقاط:

الاسم العائلي والشخصي:..... - المستوى: الرابع ابتدائي

ملاحظة: تحصلون على 4 نقاط في كل مرة تكون إجابتكم على التحدي صحيحة، وعلى 0 نقطة في حالة الإجابة الخاطئة

## التحدي الأول

**Aide l'abeille à trouver le chemin pour atteindre sa ruche en coloriant les alvéoles indiquant les résultats présents dans la table de multiplication de 7.**

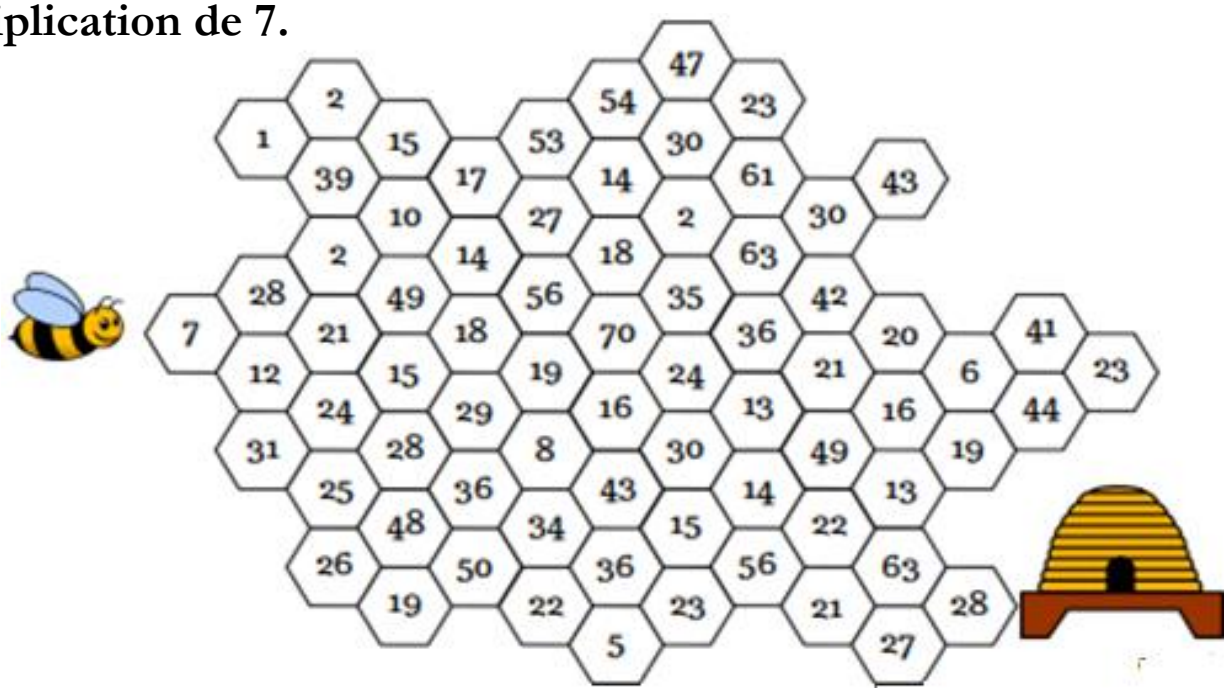


## التحدي الثاني

حدد العنصر الدخيل من بين الأشكال الهندسية التالية ؟

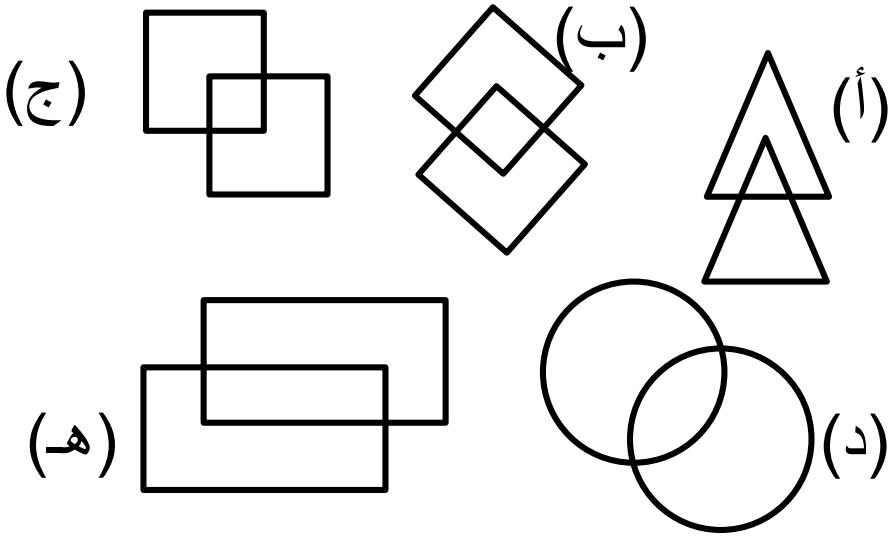

## التحدي الثالث

للحصول على هذا الزورق تم تجميع 6 متوازيات الأضلاع (parallélogrammes) علما أن كل متوازي أضلاع يتكون من 4 مثلثات صغيرة .

أرسم هذه 6 متوازيات الأضلاع على الزورق ثم ألون كلا منها بلون مغاير.

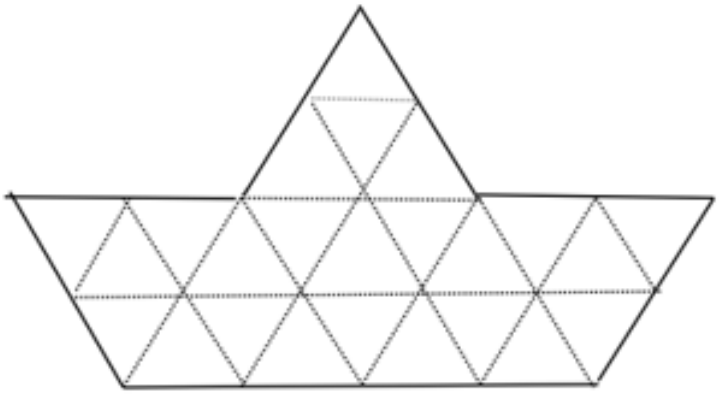

## التحدي الرابع

**Il y a un nombre dans chaque case. Ce nombre doit être la somme des deux nombres placés dans les deux cases juste en dessous.**

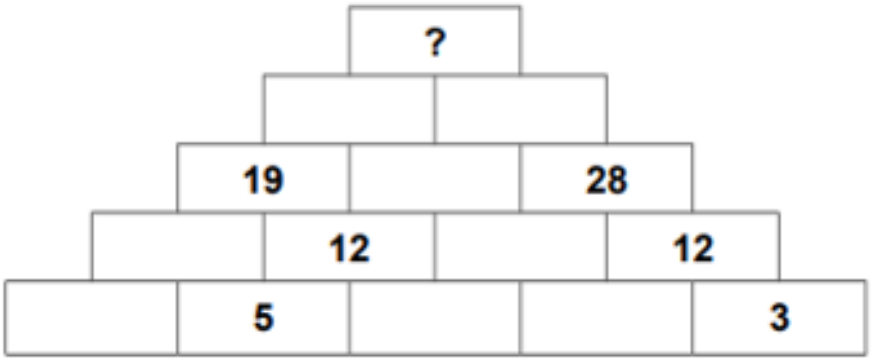


**Quel est le nombre au sommet de la pyramide?**

## التحدي الخامس

**Dans un champ, il y a des vaches et des poules.**

**Le fermier dénombre 7 têtes et 20 pattes.**

**Combien y a-t-il de vaches et de poules?**