Groupe Scolaire ESSALAM
d'enseignement privé
OUJDA

مجـموعة الســـــلام الدراسية
للتعـــليم الخصـــوصي
وجـــدة

الجولة الثانية من تحدي الرياضيات – الموسم الدراسي 2022-2021

مجموع النقاط:

الاسم العائلي والشخصي:..... - المستوى: الثالث ابتدائي

ملاحظة: تحصلون على **4 نقاط** في كل مرة تكون إجابتكم على التحدي صحيحة، وعلى **0 نقطة** في حالة الإجابة الخاطئة

التحدي الأول

كم عدد المربعات في الشكل التالي؟

التحدي الثاني

كم عدد المثلثات في الشكل التالي؟



التحدي الثالث

Ahmed a quatre briques:

Lequel des cubes suivants peut être construit avec ces quatre briques?

A)

B)

C)

D)

E)

التحدي الرابع

أكتب الأعداد من 1 إلى 9 داخل الدوائر ليكون مجموع الأعداد داخل كل دائرة يساوي 11 .

يستعمل كل عدد مرة واحدة.

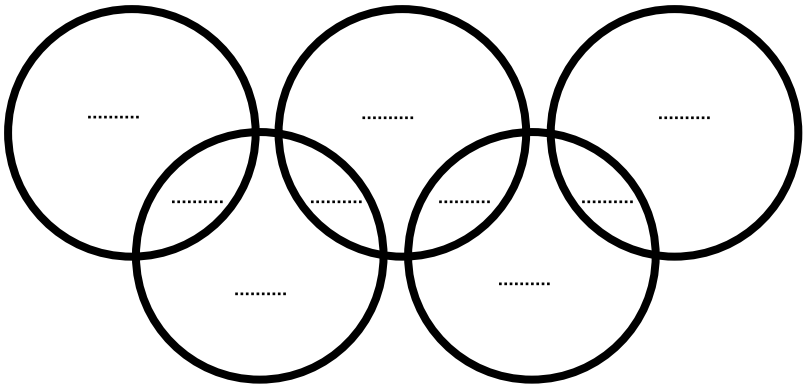

التحدي الخامس

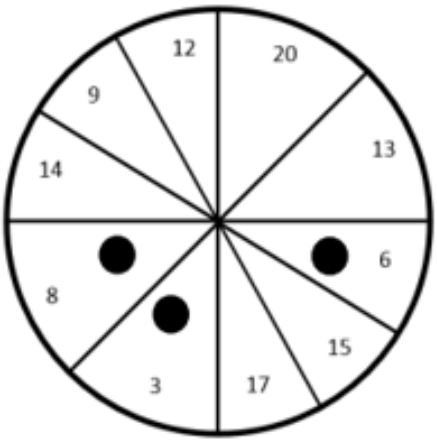

Voici une cible.

J'ai placé 1 pion (●) dans la zone 6 , 1 pion dans la zone 3 et un pion dans la zone 8.

Cela fait au total un score 17 points

(6 + 3 + 8 = 17) .

▪ Placez à votre tour 3 pions pour réaliser un score de 37 points.

On ne doit utiliser que les nombres figurant sur la cible.

Trouve 3 solutions différentes ?
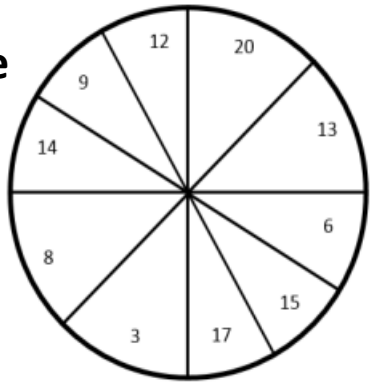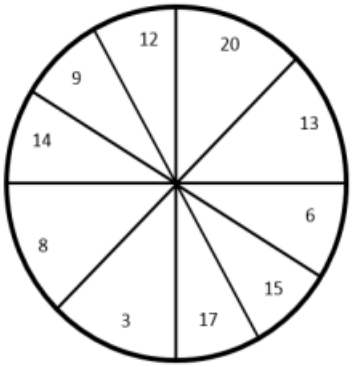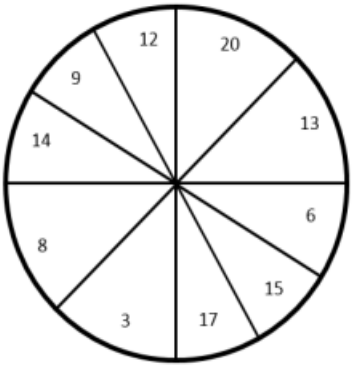
Aide possible