Groupe Scolaire ESSALAM
d'enseignement privé
OUJDA

مجـموعة الســـــلام الدراسية
للتعـــليم الخصـــوصي
وجـــدة

الجولة الثانية من تحدي الرياضيات – الموسم الدراسي 2022-2021

مجموع النقاط:

الاسم العائلي والشخصي:..... - المستوى: الثاني ابتدائي

ملاحظة: تحصلون على **4 نقاط** في كل مرة تكون إجابتكم على التحدي صحيحة، وعلى **0 نقطة** في حالة الإجابة الخاطئة

التحدي الأول

يوجد 12 سمكة . ما هو عدد الأسماك المختبئة وراء الطحالب؟

التحدي الثاني

لاحظ اتجاه السهام ثم املأ خانات كل شريط بالأعداد المناسبة .

أضيف 1 → أضيف 10 ↓

1) 1 → 2 → 3 ↓ 13 ↓ ..... ↓ 33 → .....

2) ..... ↓ 11 ↓ 21 → ... . ↓ ..... → ..... ↓ 43

3) ..... → 10 ↓ ..... ↓ ... . ↓ ..... ↓ 50

التحدي الثالث

لون بنفس اللون الكتابات التي تعبر على نفس العدد.

24 + 12	4 x 10	43 - 23	20 + 5	10 + 10
48 - 12	10 x 2	30 + 6	20 + 20	5 x 5

التحدي الرابع

أوجد الأعداد المناسبة.

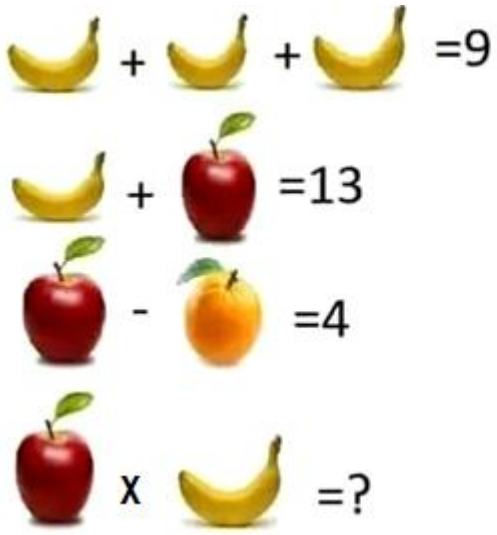

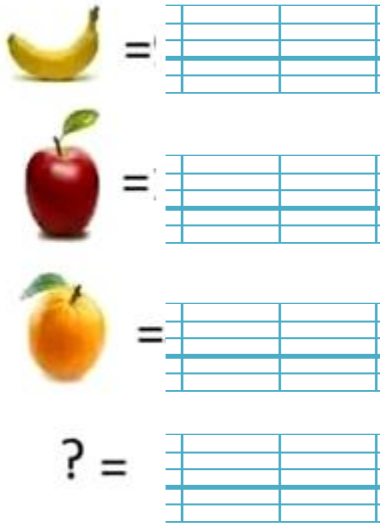

التحدي الخامس
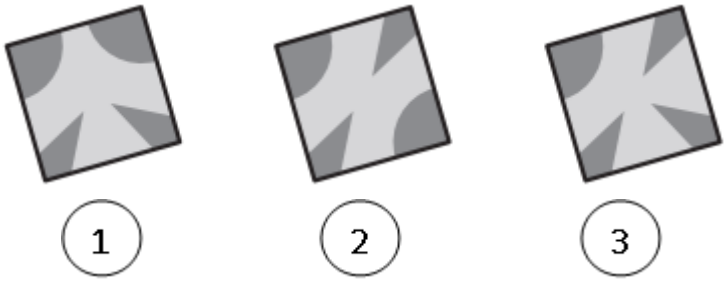
ما هو الجزء الناقص في الترصيف التالي؟