Groupe Scolaire ESSALAM
d'enseignement privé
OUJDA

مجـموعة الســـــلام الدراسية
للتعـــليم الخصـــوصي
وجـــدة

الجولة الثانية من تحدي الرياضيات – الموسم الدراسي 2022-2021

مجموع النقاط:

الاسم العائلي والشخصي:..... - المستوى: الأول ابتدائي

ملاحظة: تحصلون على 4 نقاط في كل مرة تكون إجابتكم على التحدي صحيحة، وعلى 0 نقطة في حالة الإجابة الخاطئة

التحدي الأول

لاحظ و أتمم الرسم .

التحدي الثاني

إذا استعملت المجسمات التالية :

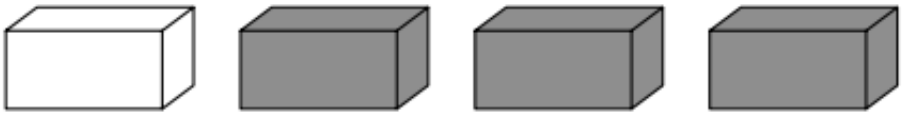

ما هو التركيب الذي ستحصل عليه ؟

A) 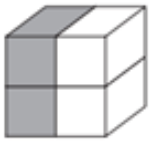

B) 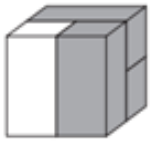

C)

التحدي الثالث

ما هو العدد الذي تمثله علامة الاستفهام ؟

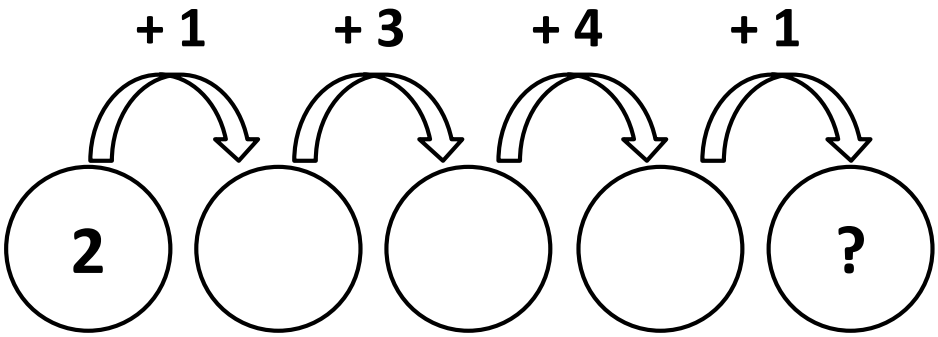

? =

التحدي الرابع

ضع علامة (x) تحت الجزء الناقص ؟

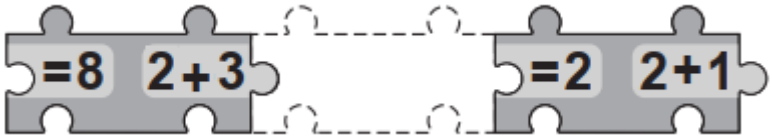

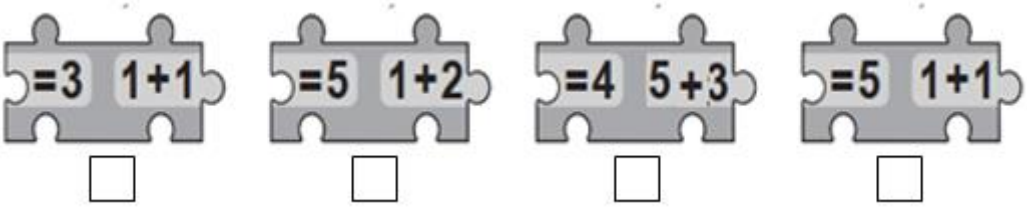

التحدي الخامس

ما هو عدد المكعبات في التركيب التالي ؟