Groupe Scolaire ESSALAM
d'enseignement privé
OUJDA

مجـموعة الســـــلام الدراسية
للتعـــليم الخصـــوصي
وجـــدة

الجولة الثانية من تحدي الرياضيات – الموسم الدراسي 2021-2020

الاسم العائلي والشخصي:..... - المستوى: الثالث ابتدائي

مجموع النقاط:

ملاحظة: تحصلون على **4 نقاط** في كل مرة تكون إجابتكم على التحدي صحيحة، وعلى **0 نقطة** في حالة الإجابة الخاطئة

التحدي الأول

- ما هو العدد المطلوب مكان علامة الاستفهام؟

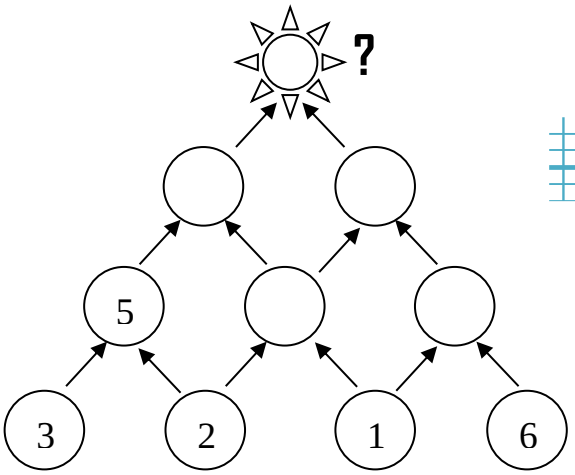

التحدي الثاني

هذه مجموعة أقنعة أنشأها خالد باستعمال أشكال هندسية.إنها مجموعة جميلة إلا إن خالد لاحظ أن هذه المجموعة غير مكتملة وينقصه قناعا واحدا.

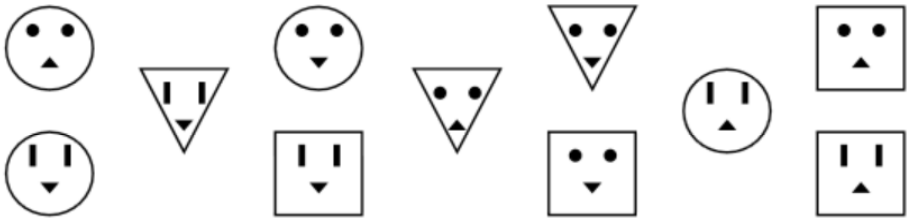

- أرسم القناع الذي ينقص خالد لإتمام هذه المجموعة.

التحدي الثالث



- أوجد العدد الذي يخفيه الضفدع ؟

التحدي الرابع

لفتح هذه الخزانة الحديدية نستعمل قنا سريا.

لا يوجد أي رقم صحيح	3	2	1
رقم واحد صحيح ولكن ليس في مكانه المناسب	2	1	6
رقم واحد صحيح وفي المكان المناسب	6	5	4
رقم واحد صحيح و في المكان المناسب	5	4	7
رقم واحد صحيح ولكن ليس في مكانه المناسب	8	1	2

▪ أوجد الأرقام الثلاثة للقن السري ؟

التحدي الخامس

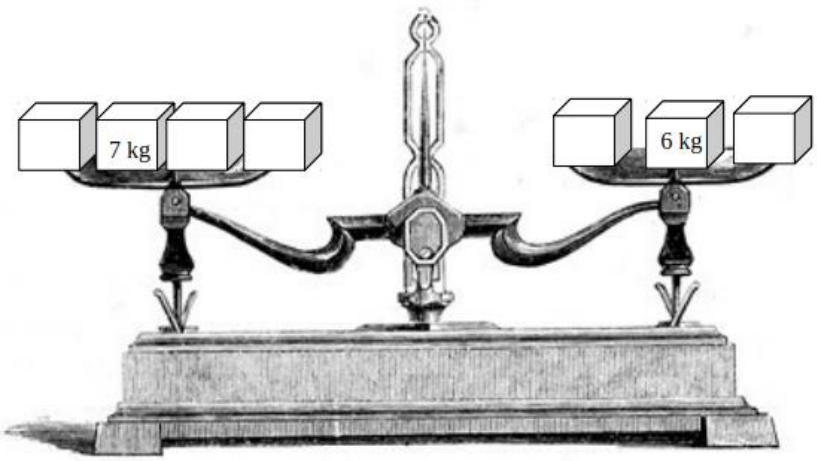

أكتب الكتل : 1kg ; 2kg ; 3 kg ; 4kg ; 5kg على العلب الموجودة على كفتي الميزان ليصبح الميزان في حالة توازن.