Groupe Scolaire ESSALAM d'enseignement privé OUJDA	مجـموعة الســـــلام الدراسية للتعـــليم الخصـــوصي وجـــدة	

تحدي الرياضيات – الموسم الدراسي 2019-2020 – "الأسبوع رقم 4 "
تمارين التدريب – المستوى: الخامس ابتدائي

1er Défi « Lundi »	التحدي الأول - تحدي الاثنين -

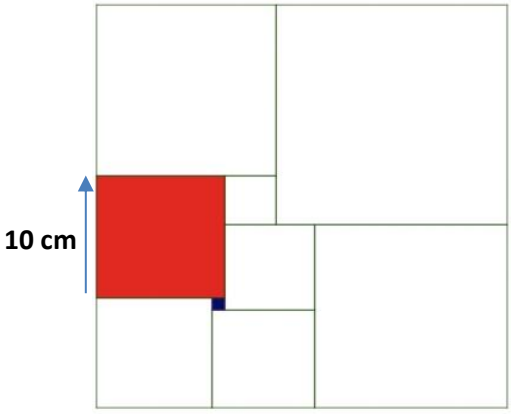

احسب طول وعرض المستطيل علما ان المربع الأسود طول ضلعه 1cm.

2ème Défi « Mercredi »	التحدي الثاني - تحدي الأربعاء -

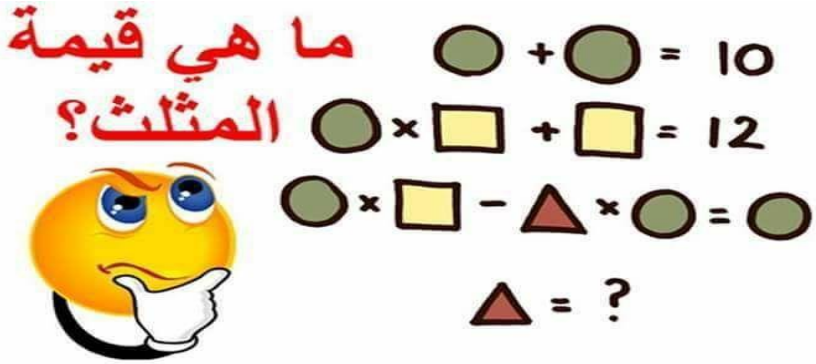

3ème Défi « Vendredi »	التحدي الثالث - تحدي الجمعة -
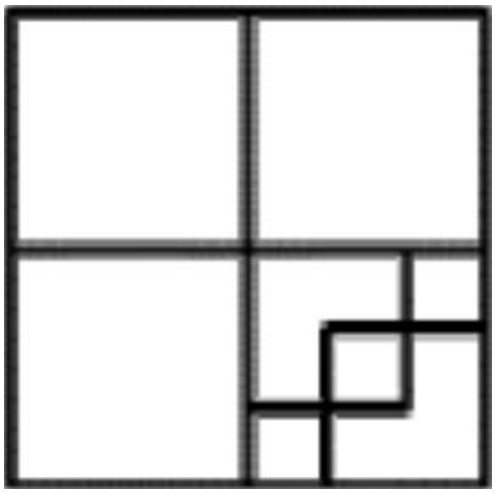
احسب عدد المربعات في الشكل التالي: