Groupe Scolaire ESSALAM d'enseignement privé OUJDA	مجـموعة الســـــلام الدراسية للتعـــليم الخصـــوصي وجـــدة	

DEFI MATHEMATIQUES ANNEE 2019-2020 « SEMAINE N° 19 »

Exercices d'Entrainement – Niveau : 1AC

1er Défi « Lundi »	التحدي الأول - تحدي الاثنين -

Place les jetons 2, 3, 4, 6, 7, 8 et 12 tels que la somme des jetons sur chacun des quatre cercles soit égale à 39

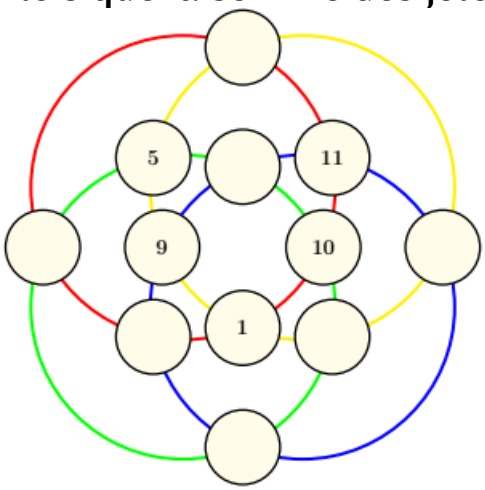

2ème Défi « Mercredi »	التحدي الثاني - تحدي الأربعاء -

Place les jetons sur les sommets des carrés de telle sorte que leur nombre soit égal à celui inscrit dans le carré.

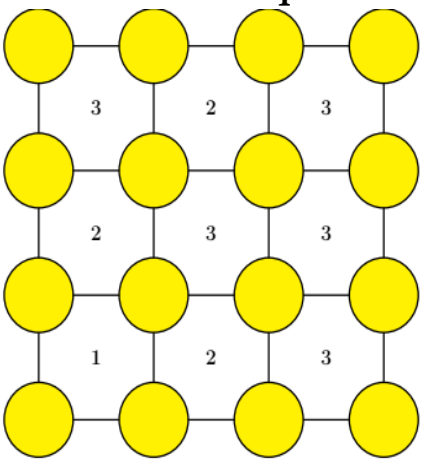

3ème Défi « Vendredi »	التحدي الثالث - تحدي الجمعة -
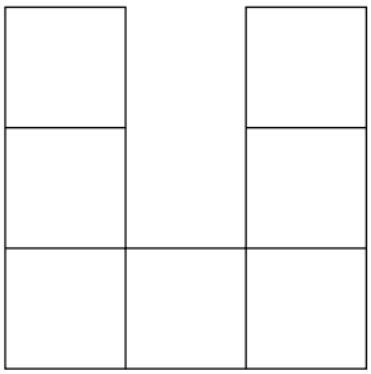
Place les jetons numérotés de 1 à 7 de telle sorte que la somme sur chacune des trois lignes soit égale à 12.