Groupe Scolaire ESSALAM
d'enseignement privé
OUJDA

مجموعة السلام الدراسية
للتعليم الخصوصي
وجدة

تحدي الرياضيات – الموسم الدراسي 2019-2020 – "الأسبوع رقم 17 "
تمارين التدريب – المستوى: السادس ابتدائي

1er Défi « Lundi »	التحدي الأول - تحدي الاثنين -

املأ الفراغات بالأرقام من 1 إلى 9 بحيث كل عمود وكل سطر وكل مربع صغير يشتمل على الرقم مرة واحدة فقط.

9	5					2		1
	2	6	1				7	3
3			6	8			4	
			5		1	6	8	
		1		7		5		
	8	3	4		9			
	6			1	3			2
8	9				4	3	1	
1		4					5	8

2ème Défi « Mercredi »	التحدي الثاني - تحدي الأربعاء -

يتم بناء فرن تقليدي بواسطة الطوب شكل أوجهه مستطيلة، و كلها متطابقة.
و نعلم أن الوجه العلوي للشكل ABCD مربع محيطه 204 cm . أوجد طول وعرض كل طوبة ؟

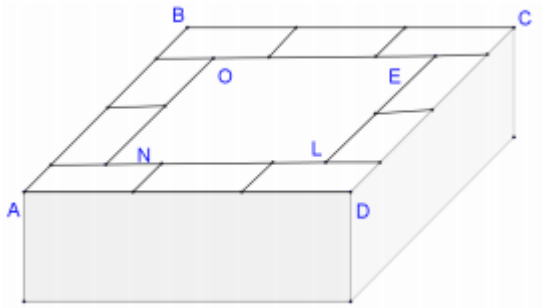

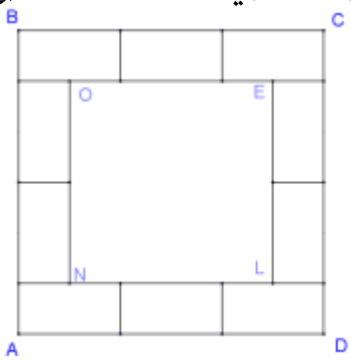

3ème Défi « Vendredi »	التحدي الثالث - تحدي الجمعة -
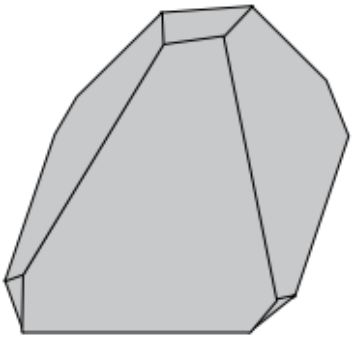
كم عدد الرؤوس و أوجه و أحرف هذا المجسم ؟