Groupe Scolaire ESSALAM
d'enseignement privé
OUJDA

مجموعة السلام الدراسية
للتعليم الخصوصي
وجدة

تحدي الرياضيات – الموسم الدراسي 2019-2020 – "الأسبوع رقم 15 "
تمارين التدريب – المستوى: الثالث ابتدائي

1er Défi « Lundi »	التحدي الأول - تحدي الاثنين -

كل كتابة جمعية يوجد بجانبها نقطة سوداء.

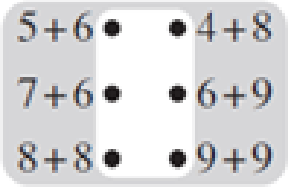

نصل النقط السوداء، مرتبة من أصغر مجموع إلى أكبر مجموع

ماهو الشكل المحصل عليه من بين الأشكال التالية ؟

2ème Défi « Mercredi »	التحدي الثاني - تحدي الأربعاء -

من بين الأشكال المرسومة أسفله

ما هو الشكل الذي يوجد فيه 3 مستطيلات و2 دوائر ومثلث؟

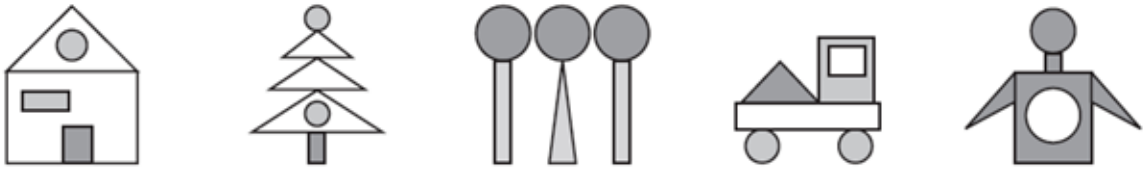

3ème Défi « Vendredi »	التحدي الثالث - تحدي الجمعة -
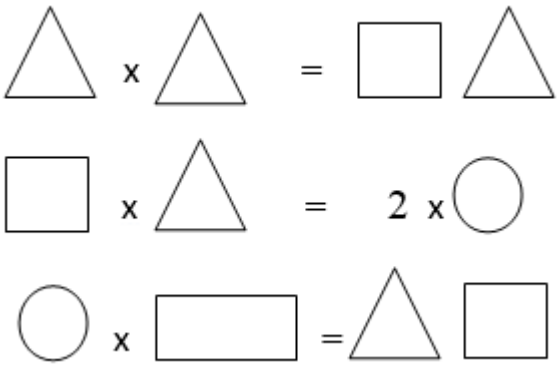
اوجد العدد الذي يخفيه كل شكل ؟