Groupe Scolaire ESSALAM d'enseignement privé OUJDA	مجـموعة الســـــلام الدراسية للتعـــليم الخصـــوصي وجـــدة	

تحدي الرياضيات – الموسم الدراسي 2019-2020 – "الأسبوع رقم 14 "

تمارين التدريب – المستوى: الرابع ابتدائي

1er Défi « Lundi »	التحدي الأول - تحدي الاثنين -

حدد العدد المطلوب مكان علامة الاستفهام ؟

256 128 64 32 ..... ?

2ème Défi « Mercredi »	التحدي الثاني - تحدي الأربعاء -

في هذه العملية (عملية جمع):

- تظهر فيها جميع الأرقام من 1 إلى 9
- جميع الأرقام الزوجية توجد داخل المربعات
- جميع الأرقام الفردية توجد داخل الدوائر
- في كل عمود رقم السطر الأول أكبر من رقم السطر الثاني

•أتمم عملية الجمع ؟

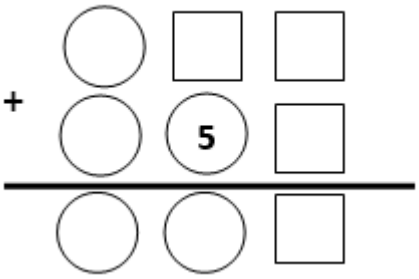

3ème Défi « Vendredi »	التحدي الثالث - تحدي الجمعة -

كتلة فطر واحد تساوي 25 g .
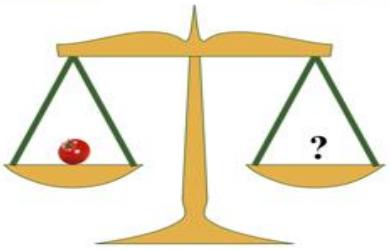
ما هي كتلة حبة طماطم ؟