Groupe Scolaire ESSALAM d'enseignement privé OUJDA	مجـموعة الســـــلام الدراسية للتعـــليم الخصـــوصي وجـــدة	

تحدي الرياضيات – الموسم الدراسي 2019-2020 – "الأسبوع رقم 10 "
تمارين التدريب – المستوى: الأول ابتدائي

1er Défi « Lundi »	التحدي الأول - تحدي الاثنين -

يأكل كل قط فأرا .

✓ كم عدد الفئران التي يأكلها 3 قطط ؟





2ème Défi « Mercredi »	التحدي الثاني - تحدي الأربعاء -

لكل طفل شجرة مفضلة لديه .

- ريم لا تحب شجرة (أ).
- علي يفضل الشجرة الموجودة عن اليسار.

شجرة (أ) شجرة (ب) شجرة (ج)

- حدد الشجرة المفضلة لكل طفل.

3ème Défi « Vendredi »	التحدي الثالث - تحدي الجمعة -
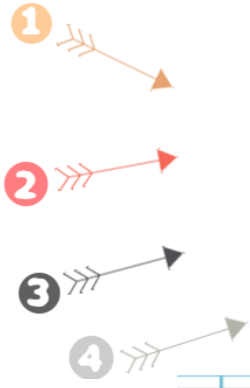
ما هـو الـسهـم الـذي سيـصـيـب الـكـرة ؟