Groupe Scolaire ESSALAM
d'enseignement privé
OUJDA

مجـموعة الســـــلام الدراسية
للتعـــليم الخصـــوصي
وجـــدة

الجولة الأولى من تحدي الرياضيات – الموسم الدراسي 2019-2020

مجموع النقاط:

الاسم العائلي والشخصي:..... - المستوى: السادس ابتدائي

ملاحظة: تحصلون على **4 نقاط** على كل تحد صحيح، و **0 نقطة** على كل تحد خاطئ

التحدي الأول

أوجد خمسة أعداد متتالية (متتابعة) مجموعها 160 ؟

التحدي الثاني

باستخدام الأعداد من 1 إلى 9 أتمم ملء خانات المربع السحري بحيث يكون مجموع كل سطر أو عمود أو قطر فيه يساوي 15:

	5	
		6

التحدي الثالث

أملأ الأقراص بالأرقام من 1 إلى 4 باستعمال رموز العمليات الموجودة في الرسم .
بحيث أنطلق من العدد 20 لأصل إلى العدد 10 .

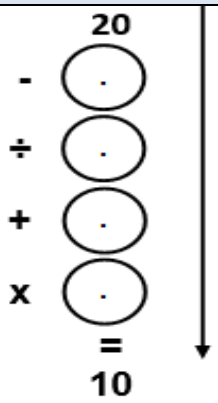

التحدي الرابع

كم عدد المثلثات الموجودة في هذا الشكل ؟

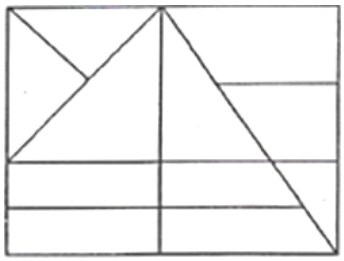

التحدي الخامس
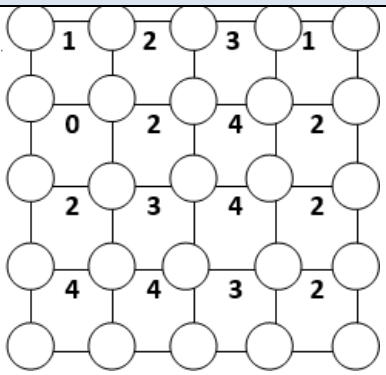
لون بالأسود رؤوس المربعات بحيث يكون عددها مساويا للرقم المدرج في المربع .